BAXIŞ

Testlər/3445#01#Y15#01#500qiyabi/**Baxış**

TEST: 3445#01#Y15#01#500QIYABI

Test	3445#01#Y15#01#500qiyabi
Fənn	3445 - İstehsal proseslərinin kompleks mexanikləşdirilməsi və avtomatlaşdirilmasi
Təsviri	[Təsviri]
Müəllif	Administrator P.V.
Testlərin vaxtı	80 dəqiqə
Suala vaxt	0 Saniyə
Növ	İmtahan
Maksimal faiz	500
Keçid balı	260 (52 %)
Suallardan	500
Bölmələr	47
Bölmələri qarışdırmaq	☑
Köçürməyə qadağa	☑
Ancaq irəli	☐
Son variant	☑

BÖLMƏ: 0201

Ad	0201
Suallardan	13
Maksimal faiz	13
Sualları qarışdırmaq	☑
Suallar təqdim etmək	2 %

Sual: İri hecmli və ağır işləri mexanikləşdirən vasitələr neçə qrupa bölünür? (Çəki: 1)

- ○ 5
- ○ 4
- ◉ 2
- ○ 3
- ○ 8

Sual: Birinci qrup mexanikləşdirilən vasitələr nəyi təmin edir? (Çəki: 1)

- ◉ Əsas və köməkçi sexlərdə fasiləsiz texnoloji prosesi
- ○ Məhsulun təmizlənməsi
- ○ İstilik təminatını
- ○ Çiyidin təmizlənməsini
- ○ Lintin təmizlənməsini

Sual: İkinci qrup mexanikləşdirilən vasitələr nəyi təmin edir? (Çəki: 1)

- ○ Məhsulun təmizlənməsi

◉ Xammalin tədarük məntəqələrinə daşınması və onun anbarlara yığılmasını
○ Xammalin tədarük məntəqələrində qurudulmasını
○ Məhsulun preslənməsini
○ Çiyidin qablaşdırılmasını

Sual: Pambıq zavodlarında tətbiq edilən nəqliyyat vasitələri hansılardır? (Çəki: 1)
◉ Pnevmatik,mexaniki,avtotraktor
○ Pnevmatik və dəmiryol
○ Mexanik və dəmiryol
○ Avtotraktor və dəmiryol
○ Su nəqliyyatı

Sual: Xam pambığın bir sexdən digərinə daşınması üçün hansı nəqliyyat növündən istifadə edilir? (Çəki: 1)
○ Hava
○ Su
○ Dəmiryol
◉ Pnevmatik
○ Avtotraktor

Sual: Pnevmatik nəqliyyat qurğusunun üstün xüsusiyyətləri hansılardır? (Çəki: 1)
◉ Etibarlıdır və quruluşuna görə sadədir
○ Az enerji tələb edir
○ Atmosferi çirkləndirmir
○ Sürətlidir
○ Ölçüləri kiçikdir

Sual: Ventilyatorda statik təzyiq nə üçün yaradılır? (Çəki: 1)
○ Lifi qurutnaq üçün
○ Lifi təmizləmək üçün
◉ Müqavimətləri dəf etmək üçün
○ Əlavə təzyiq yaratmaq üçün
○ Havanı təmizləmək üçün

Sual: Ventilyatorun məhsuldarlığı nəzərə alınmaqla,vahid zamanda ötürülən havanın miqdarı necə adlanır? (Çəki: 1)
○ Təzyiq itkisi
○ Təmizləmə effekti
○ Qızdırılma dərəcəsi
◉ Hava sərfi
○ Müqavimət

Sual: Ventilyatora tələb olunan güc hansı formula ilə xarakterizə olunur? (Çəki: 1)
$N = \frac{QH}{102\eta}$ ◉
$N = \frac{QH}{102}$ ○
$N = \frac{QH}{V}$ ○
○ N=QHV
○ N=102HV

Sual: Çalovlar hansı yükləri qaldırmaq və nəql etdirmək üçün istifadə olunur? (Çəki: 1)
- ◉ dənavər səpələnmiş yükləri
- ○ ədədi yükləri
- ○ maye şəkilli yükləri
- ○ səpələnmiş yükləri
- ○ ağır çəkili yükləri

Sual: Kəlbətinli tutucular hansı yüklər üçün nəzərdə tutulur və tətbiq edilir? (Çəki: 1)
- ○ müxtəlif ölçülü və çəkici yüklər üçün
- ◉ eyni ölçülü və çəkici yüklər üçün
- ○ səpilmiş yüklər üçün
- ○ dənavər yüklər üçün
- ○ maye yüklər üçün

Sual: Qaynaqlı zəncirlə hazırlanma dəqiqliyinə görə neçə qrupa bölünür? (Çəki: 1)
- ◉ 2
- ○ 3
- ○ 4
- ○ 5
- ○ 6

Sual: Universal yük tutucu qurğular hansılardır? (Çəki: 1)
- ◉ yük qaldırıcı və ilməli yüktutucuları
- ○ çalovlu yük tutucular
- ○ badyalı yüktutucular
- ○ kəlbətinli yüktutucular
- ○ qreyserli yüktutucular

BÖLMƏ: 0202

Ad	0202
Suallardan	16
Maksimal faiz	16
Sualları qarışdırmaq	☑
Suallar təqdim etmək	1 %

Sual: Pnevmatik qurğular quraşdırıldığı yerdən asılı olaraq necə olurlar? (Çəki: 1)
- ○ Zavoddaxili
- ◉ Zavoddaxili,sexlərarası və sexdaxili
- ○ Sexlərarası
- ○ Sexdaxili
- ○ Sexlərarası və sexdaxili

Sual: Boru kəmərində pnevmatik nəqliyyat qurğusunun işi nəyə əsaslanır? (Çəki: 1)
- ○ Havanin verilməsinə
- ○ Havanın sorulmasina
- ○ Xam pambığın təmizlənməsinə
- ◉ Materialın hava ilə birlikdə hərəkətinə
- ○ Havanın hərəkətinə

Sual: Havanın boru kəmərində hərəkəti necə təmin edilir? (Çəki: 1)
- ○ Əllə
- ○ Dartma ilə
- ○ Sorma ilə
- ○ Sonda təzyiqin azalması ilə
- ◉ Əvvəldə və sonda təzyiq fərqi

Sual: Pnevmatik nəqliyyat qurğuları bir-birindən nə ilə fərqlənirlər? (Çəki: 1)
- ○ Ölçülərinə
- ○ Sürətlərinə
- ◉ Sorucu,vurucu və sorucu-vurucu olmasi ilə
- ○ Sorucu olmasi ilə
- ○ Vurucu olmasi ilə

Sual: Mahlıcın cinlər batareyasından kondensora nəql edilməsi üçün hansı pnevmatik qurğulardan istifadə olunur? (Çəki: 1)
- ◉ Sorucu
- ○ Vurucu
- ○ Sorucu-vurucu
- ○ Dartıcı
- ○ Didici

Sual: Lintin linterlər batareyasından kondensora nəql edilməsi üçün hansı pnevmatik nəqliyyat qurğulardan istifadə olunur? (Çəki: 1)
- ○ Vurucu
- ◉ Sorucu
- ○ Didici
- ○ Dartıcı
- ○ Sorucu-vurucu

Sual: Aşağıdakılardan hansı sorucu pnevmatik nəqliyyat qurğusunun əsas elementidir? (Çəki: 1)
- ◉ Xam pambığı boruya ötürən mexaniki ötürücü
- ○ Təkərlər
- ○ Nasos
- ○ Lentli qidalandırıcı
- ○ Lentli daşıyıcı

Sual: Aşağıdakılardan hansı sorucu pnevmatik nəqliyyat qurğusunun əsas elementidir? (Çəki: 1)
- ○ Nasos
- ○ Lentli qidalandırıcı
- ○ Lentli daşıyıcı
- ◉ İşçi ötürücü boru
- ○ Təkərlər

Sual: Aşağıdakılardan hansı sorucu pnevmatik nəqliyyat qurğusunun əsas elementidir? (Çəki: 1)
- ◉ Seperator və sorucu hava borusu
- ○ Təkərlər
- ○ Lentli daşıyıcı
- ○ Lentli qidalandırıcı
- ○ Nasos

Sual: Aşağıdakılardan hansı sorucu pnevmatik nəqliyyat qurğusunun əsas elementidir? (Çəki: 1)
- ○ Lentli daşıyıcı
- ○ Lentli qidalandırıcı
- ○ Kətan
- ◉ Tozlu havanı çıxaran boru
- ○ Qətran

Sual: Aşağıdakılardan hansı sorucu pnevmatik nəqliyyat qurğusunun əsas elementidir? (Çəki: 1)
- ○ Kətan
- ○ Qətran
- ◉ Toz çökdürücü qurğu
- ○ Lentli daşıyıcı
- ○ Lentli qidalandırıcı

Sual: Sorucu pnevmatik nəqliyyat qurğusunda işçi ötürücü boru nədən ibarətdir? (Çəki: 1)
- ◉ Magistral sahədən və ötürücü qollardan
- ○ Ventilyatordan
- ○ Mühərrikdən
- ○ Vallardan
- ○ Lentli daşıyıcıdan

Sual: VS- 10M mərkəzdənqaçma ventilyatoru hansı sahələrdə tətbiq edilir? (Çəki: 1)
- ○ Anbarlarda
- ○ Pres qurğularda
- ○ Çiyidin nəql olunmasında
- ◉ Sexlərarası və sexdaxili qurğularda
- ○ Çiyidin yüklənməsində

Sual: VS- 10M mərkəzdənqaçma ventilyatorunda havanın təzyiqi necə olur? (Çəki: 1)
- ◉ 4710 Pa
- ○ 5640 Pa
- ○ 3150 Pa
- ○ 6480 Pa
- ○ 3220 Pa

Sual: VS- 10M mərkəzdənqaçma ventilyatorunda hava sərfi neçə olur? (Çəki: 1)
- ○ 5-8 m/san
- $4m^3/san$ ◉
- $18m^3/san$ ○
- $104m^3/san$ ○
- $5\text{-}6m^3/san$ ○

Sual: VS- 10M mərkəzdənqaçma ventilyatorunun kütləsi nə qədərdir? (Çəki: 1)
- ○ 285kq
- ○ 500kq
- ○ 1220kq
- ◉ 885kq
- ○ 214kq

BÖLMƏ: 0203

Ad	0203

Suallardan	14
Maksimal faiz	14
Sualları qarışdırmaq	☑
Suallar təqdim etmək	1 %

Sual: Magistral sahənin diametri neçə mm-dir? (Çəki: 1)
- ○ 500-600 mm
- ◉ 400-450 mm
- ○ 300-400 mm
- ○ 250-300 mm
- ○ 800-1000 mm

Sual: İstehsal gücü yüksək olan pambıq zavodlarında ötürücü borunun uzunluğu neçə metr olur? (Çəki: 1)
- ○ 50-100 m
- ○ 20-30 m
- ◉ 200-250 m
- ○ 12-24 m
- ○ 420-450 m

Sual: Ümumi aparıcı boruya qoşulan və ondan ayrılan hissələr necə birləşdirilməlidir? (Çəki: 1)
- ○ Yapışdırıcı ilə
- ○ Şüşə ilə
- ○ Əllə
- ◉ Germetik
- ○ Xamutla

Sual: Pnevmatik nəqliyyat qurğularında əsasən hansı ventilyatorlardan istifadə olunur? (Çəki: 1)
- ○ Şaquli
- ○ Üfüqi
- ○ Horizontal
- ○ Vertikal
- ◉ Mərkəzdənqaçma

Sual: VS- markalı mərkəzdənqaçma ventilyatoru hansı hissələrdən ibarətdir? (Çəki: 1)
- ◉ Radial kürəklər,pərli çarx
- ○ Sorucu qurğu
- ○ Burucu disk
- ○ Ekssentrik
- ○ Dartıcı qurğu

Sual: Aşağıdakılardan hansı VS- markalı ventilyatorun hissələridir? (Çəki: 1)
- ○ Burucu disk və ekssentrik
- ◉ Şaquli disk və ,pərlərin konusu
- ○ Dartıcı qurğu
- ○ Əyrici qurğu
- ○ Yivli çarx

Sual: VS-ventilyatoru hərəkəti hansı qurğulardan alır? (Çəki: 1)

○ Şaquli diskdən
○ Dartıcı qurğudan
◉ Elastiki muftanın köməyi ilə mühərrikdən
○ Yivli çarxdan
○ Əyrici qurğudan

Sual: VS-ventilyatorun işi neçə əsas göstərici ilə xarakterizə olunur? (Çəki: 1)
○ 10
○ 5
◉ 4
○ 3
○ 21

Sual: Ventilyatorun tam təzyiqi hansı formula ilə təyin olunur? (Çəki: 1)
$H_t = H_s + H_d$ ◉
$H_t = PVh$ ○
$H_t = p(ro)Vh$ ○
$H_t = SV$ ○
$H_t = SVh$ ○

Sual: VS- 8M mərkəzdənqaçma ventilyatorunda hava sərfi neçə olur? (Çəki: 1)
○ 5 m/san
$2,5\text{-}3\ m^3/san$ ◉
$18 m^3/san$ ○
$4\text{-}5,5\ m^3/san$ ○
$1\text{-}2\ m^3/san$ ○

Sual: VS- 8M mərkəzdənqaçma ventilyatorunda havanın təzyiqi neçə olur? (Çəki: 1)
◉ 3150 Pa
○ 3864 Pa
○ 4834 Pa
○ 2000 Pa
○ 2815 Pa

Sual: VS- 12M mərkəzdənqaçma ventilyatorunda hava sərfi nə qədərdir? (Çəki: 1)
○ 12Pa
○ 24Pa
◉ 5-6Pa
○ 8-14Pa
○ 10-11Pa

Sual: VS- 12M mərkəzdənqaçma ventilyatorunun kütləsi nə qədər olur? (Çəki: 1)
◉ 1358 kq
○ 1050 kq
○ 1560 kq
○ 885 kq
○ 575 kq

Sual: Xam pambığın hərəkət radiusu 100 m-dən çox olan pnevmatik qurğularda hansı ventilyatorlardan istifadə olunur? (Çəki: 1)

- ○ VS-8M
- ○ VS-10M
- ◉ VS-12M
- ○ VS-170M
- ○ VS-110M

BÖLMƏ: 0301

Ad	0301
Suallardan	10
Maksimal faiz	10
Sualları qarışdırmaq	☑
Suallar təqdim etmək	2 %

Sual: Xam pambığın sexlərdə maşınlara ötürülməsi və maşınlara çıxarılması hansı konveyerlərdən istifadə olunur? (Çəki: 1)

- ◉ Yivli konveyer
- ○ Ventilyator
- ○ Dişli çarx
- ○ Sorucu qurğu
- ○ Vurucu qurğu

Sual: Yivli konveyerində şnekin diametri neçə mm olur? (Çəki: 1)

- ○ 280
- ○ 300
- ◉ 450
- ○ 500
- ○ 820

Sual: Yivli konveyerdə şnekin addımı neçə mm olur? (Çəki: 1)

- ○ 400
- ◉ 300
- ○ 350
- ○ 820
- ○ 500

Sual: Aşağıdakılardan hansı yivli konveyerin əsas hissələrindəndir? (Çəki: 1)

- ○ Çervyak
- ○ Şupul
- ○ Kələf
- ◉ Nov
- ○ Çalov

Sual: Aşağıdakılardan hansı yivli konveyerin əsas hissələrindəndir? (Çəki: 1)

- ○ Kələf
- ○ Şupul
- ○ Çalov
- ○ Ventilyator
- ◉ Asma dayaqlar

Sual: Konveyerin yivi ilə örtük arasındakı məsafə neçə mm olmalıdır? (Çəki: 1)
- ◉ 25-32
- ○ 45-50
- ○ 10-15
- ○ 50-55
- ○ 100-110

Sual: Konveyerin yivi ilə örtük arasındakı məsafə az olarsa hansı hal yaranar? (Çəki: 1)
- ○ Pambıq yanar
- ◉ Pambıq şnekdən tökülər
- ○ Pambıq təmizlənər
- ○ Pambığın nəmliyi artar
- ○ Pambığın nəmliyi azalar

Sual: Yivli konveyerin dövrlər sayını neçə seçmək lazımdır? (Çəki: 1)
- ○ Ətraf mühütə görə
- ○ Xam pambığın zibilliyinə görə
- ◉ Tələb olunan məhsuldarlıqdan asılı olaraq
- ○ Çiyidin sayından asılı olaraq
- ○ Xam pambığın nəmliyindən asılı olaraq

Sual: Yivli konveyerin dövrlər sayı nə qədər olmalıdır? (Çəki: 1)
- $505\ deq^{-1}$ ○
- $250\ deq^{-1}$-den cox ○
- $135deq^{-1}$-den cox ○
- $120\ deq^{-1}$-den az ◉
- $1234deq^{-1}$ ○

Sual: Yivli konveyerin məhsuldarlığı hansı amillərdən asılıdır? (Çəki: 1)
- ○ Havanın hərəkətindən
- ○ Pambığın nəmliyindən və zibilliyindən
- ○ Pambığın növündən
- ○ Pambıq lifinin uzunluğundan
- ◉ Şnekin pambıqla dolmsından və yivin diametrindən

BÖLMƏ: 0302

Ad	0302
Suallardan	11
Maksimal faiz	11
Sualları qarışdırmaq	☑
Suallar təqdim etmək	1 %

Sual: Yivli konveyerin məhsuldarlığı hansı formula ilə təyin edilir? (Çəki: 1)
- $V = 60\frac{\pi D^2}{4} Sn\psi$ ◉
- $V=60\pi D^2 Sn$ ○

$V=\pi D^2\psi$ ○

$V=SVD^2\psi$ ○

$V=60\pi D^2V$ ○

Sual: Yivli konveyerin məhsuldarlığını təyin edən formulada D hərfi nəyi göstərir? (Çəki: 1)

○ Vintin addımı
◉ Vintin diametri
○ Vintin fırlanma tezliyi
○ Mühərrikin gücü
○ Konveyerin uzunluğu

Sual: Yivli konveyerin məhsuldarlığını təyin edən formulada S hərfi nəyi göstərir? (Çəki: 1)

○ Vintin diametri
○ Vintin fırlanma tezliyi
◉ Vintin addımı
○ Mühərrikin gücü
○ Konveyerin uzunluğu

Sual: Yivli konveyerin məhsuldarlığı formulasında n hərfi nəyi göstərir? (Çəki: 1)

○ Vintin addımı
○ Vintin diametri
○ Mühərrikin gücü
◉ Vintin fırlanma tezliyi
○ Konveyerin uzunluğu

Sual: (Çəki: 1)

Yivli konveyerin mehsuldarlığı formulasında ρ herfi neyi gosterir?

○ Vintin addımı
○ Şnekin diametri
○ Mühərrikin gücü
○ Konveyerin uzunluğu
◉ Xam pambığın həcm kütləsi

Sual: (Çəki: 1)

Orta lifli xam pambıq novleri ucun hecm kutlesi nece kq/m^3 olur?

◉ 50-60
○ 70-85
○ 80-95
○ 120-125
○ 270-450

Sual: (Çəki: 1)

Zerif lifli xam pambıq novl?ri ucun hecm kutlesi nece kq/m^3 olur?

○ 50-60
◉ 70-80
○ 80-95
○ 120-130
○ 480-520

Sual: (Çəki: 1)

Yivli konveyerin mehsuldarlığı formulasında ψ herfi neyi gosterir?

- ○ Vintin addımı
- ○ Vintin tezliyi
- ◉ Şnekin dolma əmsalı
- ○ Konveyerin uzunluğu
- ○ Mühərrikin gücü

Sual: Şnekin fırlanma tezliyi 120 dəq-1 olduqda dolma əmsalı neçə olar? (Çəki: 1)

- ○ 10
- ○ 8
- ○ 0,7
- ○ 0,6
- ◉ 0,4

Sual: Mühərrikin gücünü tətin edən formulada L hərfi nəyi göstərir? (Çəki: 1)

- ○ Vintin diametri
- ○ Vintin addımı
- ◉ Konveyerin uzunluğu
- ○ Vintin fırlanma tezliyi
- ○ Həcm kütləsi

Sual: (Çəki: 1)
Muherrikin gucunu teyin eden formulada η herfi neyi gosterir?

- ○ Vintin diametri
- ○ Vintin addımı
- ○ Konveyerin uzunluğu
- ◉ Mühərrikin faydalı iş əmsalı
- ○ Vintin fırlanma tezliyi

BÖLMƏ: 0401

Ad	0401
Suallardan	9
Maksimal faiz	9
Sualları qarışdırmaq	☑
Suallar təqdim etmək	2 %

Sual: Hansı parametrlərdə görə ventilyator və onun iş rejimi seçilir? (Çəki: 1)

- ◉ Hava sərfi,təzyiq itkiləri və hərəkət sürəti
- ○ Xam pambığın nəmliyinə görə
- ○ Xam pambığın zibilliyinə görə
- ○ Pambığın hərəkət istiqamətinə görə
- ○ Xam pambıqdakı çiyidə görə

Sual: İşçi aparıcı boruda havanın qaldırıcı qüvvəsi hansı formula ilə təyin olunur? (Çəki: 1)

- ○ R=VBU
- ◉ $R=\varphi\int_0 \frac{\vartheta_v^2 \gamma}{2g}$
- ○ $R=\varphi\frac{\vartheta^2}{\ldots}$

$R=\varphi 2g\gamma$ ○
○ R=2ghv

Sual: Boruda havanın qaldırıcı qüvvəsini təyin edən formulada $f0$ - hərfi nəyi göstərir? (Çəki: 1)
○ Təzyiqi
○ Sürəti
◉ Materialın en kəsiyinin sahəsi
○ Materialın boru ilə sürtünməsini
○ Temperaturu

Sual: (Çəki: 1)
Boruda havanın qaldırıcı quvvesini teyin eden formulada γ - herfi neyi gosterir?
○ Sərbəstdüşmə təcilini
○ Vitaniya sürətini
○ Matrialın sıxlığı
◉ Havanın sıxlığı
○ Materialın sahəsi

Sual: Boruda havanın qaldırıcı qüvvəsini təyin edən formulada g-hərfi nəyi göstərir? (Çəki: 1)
○ Materialın sıxlığını
○ Havanın sıxlığını
○ Materialın sahəsini
○ Vitaniya sürətini
◉ Sərbəstdüşmə təcilini

Sual: (Çəki: 1)
Tubulent zamanı φ -nin qiymeti ne qeder olar?
$\varphi \approx 1$ ◉
$\varphi \approx 18$ ○
$\varphi \approx 24$ ○
$\varphi \approx 102$ ○
$\varphi \approx 118$ ○

Sual: Boruda havanın faktiki sürəti hansı formula ilə təyin edilir? (Çəki: 1)
$)\vartheta_v = 2\vartheta$ ○
$\vartheta_v = \vartheta H$ ○
$\vartheta_v = \vartheta + \vartheta_m$ ◉
$\vartheta_v = 2(\vartheta + \vartheta_m)$ ○
$\vartheta_v = 2\vartheta_m$ ○

Sual: (Çəki: 1)
Boruda havanın faktiki süreti hansı formulada ϑ- herfi neyi g?sterir?
○ Materialın sürətini
○ Axın sürətini
○ Axına qarşı sürəti
◉ Havanın faktiki sürəti
○ Fırlanma tezliyi

Sual: (Çəki: 1)
Boruda havanın qaldırıcı quvvesini teyin eden formulada ϑ_v-herfi neyi gosterir?

- ○ Sərbəstdüşmə təcilini
- ◉ Vitaniya sürətini
- ○ Havanın sıxlığını
- ○ Materialın sıxlığını
- ○ Materialın həcmini

BÖLMƏ: 0402

Ad	0402
Suallardan	18
Maksimal faiz	18
Sualları qarışdırmaq	☑
Suallar təqdim etmək	1 %

Sual: Aparıcı boruda vitaniya sürətində cism boru içərisində hansı vəziyyətdə olur? (Çəki: 1)

- ◉ Asılmış
- ○ Tərpənməz
- ○ Sükunətdə
- ○ Sərbəst
- ○ Azad

Sual: Vitaniya sürəti hansı formula ilə təyin edilir? (Çəki: 1)

- $V_v=3,6dm$ ○
- $V_v=3,6\sqrt{\frac{\gamma_m}{\gamma}d_m}$ ◉
- $V_v=3,62\gamma_m d_m$ ○
- $V_v=\gamma\gamma_m+3,62d_m$ ○
- $V_v=\gamma d_m\varphi$ ○

Sual: (Çəki: 1)
Vitaniya sureti formulasında d_m neyi gosterir?

- ○ Axın sürətini
- ○ Materialın sürətini
- ◉ Şarın diametri
- ○ Havanın sıxlığını
- ○ Materialın sıxlığını

Sual: Boruda vitaniya sürəti əsasən nədən asılı olur? (Çəki: 1)

- ○ Havanın nəmliyindən
- ○ Təzyiqdən
- ○ Materialın həcmindən
- ◉ Axının hərəkət rejimindən
- ○ Havanın sıxlığından

Sual: Tubulent rejimində axının intensiv dəyişməsi zamanı vitaniya sürəti necə dəyişir? (Çəki: 1)

- ○ Artır

- ○ Sabit olur
- ○ Bərabər paylanır
- ○ Sürətlənir
- ◉ Azalır

Sual: Metpsi hansı asılılığı müəyyən etmişdir? (Çəki: 1)

- $V = 5G_m^{0.4}$ ◉
- ○ V=FG
- ○ V=FGh
- ○ V=gGH
- ○ V=VSh

Sual: Üfüqi borunun başlanğıcında havanın sürəti havanın boruda tıxanma əmələ gətirmə sürətindən necə fərqlənər? (Çəki: 1)

- ○ 1,7 dəfə az
- ◉ 1,7 dəfə çox
- ○ 3,2 dəfə az
- ○ 3,4 dəfə çox
- ○ 5 dəfə çox

Sual: Üfüqi boruda xam pambığın hərəkət sürəti hansı formula ilə təyin edilir? (Çəki: 1)

- $\vartheta_m = \psi G$ ○
- $\vartheta_m = 2{,}8\psi G$ ○
- $\vartheta_m = \psi\vartheta_h$ ◉
- $\vartheta_m = 234\psi\vartheta_h$ ○
- $\vartheta_m = 2h\psi$ ○

Sual: Qurğunun məhsuldarlığından və xam pambığın yumşaldılma dərəcəsindən asılı olan əmsalın qiyməti necə dəyişir? (Çəki: 1)

- ○ 1-2
- ○ 1-1,5
- ○ 3-4,7
- ◉ 0,5-0,75
- ○ 0,8-0,95

Sual: Enerji itkisini azaltmaq məsədilə materialın hərəkət sürəti üfüqi və şaquli borularda necə dəyişir? (Çəki: 1)

- ○ Dəyişən
- ○ Fərqli
- ○ Artıq
- ○ Az
- ◉ Bərabər

Sual: Qarışığın kütlə konsentrasiyası necə təyin edilir? (Çəki: 1)

- ◉ Məhsuldarlığın hava sərfinə nisbəti ilə
- ○ Hava sərfi ilə
- ○ Məhsuldarlıqla
- ○ Sürətlə
- ○ Təcillə

Sual: Xam pambığın nəql edilməsi üçün hansı diametrlərdə borular tətbiq edilir? (Çəki: 1)
- ○ 200-300
- ◉ 400-450
- ○ 470-500
- ○ 150-200
- ○ 530-550

Sual: Magistral boruda hava sərfi necə təyin edilir? (Çəki: 1)
- $Q = \frac{\pi D^2}{8} \vartheta_n$ ○
- $Q = 234\pi D^2$ ○
- $Q = \frac{\pi D^2}{4} \vartheta_n$ ◉
- $Q = \pi D^2 \vartheta_n$ ○
- $Q = \pi \vartheta_n \psi$ ○

Sual: Ventilyator tərəfindən vurulan havanın ümumi miqdarı necə təyin edilir? (Çəki: 1)
- $\Delta Q = ahv$ ○
- $\Delta Q = \pi \vartheta_n$ ○
- $\Delta Q = 234\pi \vartheta_n$ ○
- $\Delta Q = 2\pi \vartheta_n$ ○
- $\Delta Q = a\sqrt{H_{tam}}$ ◉

Sual: SS-1A Seperatorunda konstruksiyadan asılı olan əmsalın qiyməti neçədir? (Çəki: 1)
- ○ 1,2
- ○ 0,025
- ○ 1,7
- ○ 3
- ◉ 0,073

Sual: Səpələnən yüklərin nəmliyini təyin etmək üçün yükü hansı temperaturda qurutmaq lazımdır? (Çəki: 1)
- ◉ 105°C
- ○ 95°C
- ○ 85°C
- ○ 115°C
- ○ 125°C

Sual: Qarmağın qaykasının hündürlüyünün təyin edilməsi düsturu? (Çəki: 1)
- $H = \frac{Q}{\pi \cdot d_1 \cdot K_1 \cdot K_2 \cdot [\tau]}$ ◉
- $H = \frac{Q}{\pi \cdot d_1^3 \cdot \sigma_{sy}}$ ○
- $H = \frac{6Q}{\pi \cdot d_1^3 \cdot \sigma_{sy}}$ ○
- $H = \frac{4Q}{\pi \cdot d_1 \cdot [\tau]}$ ○

$H = \frac{4Q}{\pi \cdot d_1 \cdot [\sigma_d]}$ ○

Sual: Qarmağın quyruq hissəsini təşkil edən yivin möhkəmlik şərtini təyin edin. (Çəki: 1)

$\sigma_d = \frac{4Q}{\pi d^2}$ ◉

$\sigma_d = \frac{Q}{\pi d^2}$ ○

$\sigma_d = \frac{Q}{\pi d}$ ○

$\sigma_d = \frac{M}{W}$ ○

$\sigma_d = \frac{M}{0,1d^3}$ ○

BÖLMƏ: 0403

Ad	0403
Suallardan	7
Maksimal faiz	7
Sualları qarışdırmaq	☑
Suallar təqdim etmək	1 %

Sual: Sürtünmə nəticəsində işçi boruda yaranan təzyiq itkisi necə təyin edilir? (Çəki: 1)

$h = 9.8\lambda \frac{1}{D} \cdot \frac{\vartheta^2}{2g} \gamma L$ ◉

$h=9,8\pi D^2$ ○

$h=\vartheta^2 2g$ ○

$h=\vartheta^2 2g\ h$ ○

$h=\vartheta^2 2ghV$ ○

Sual: Boru kəmərində yerli xarakterli təzyiq itkisi necə təyin edilir? (Çəki: 1)

$h=(1+\varepsilon+\psi^2\mu)\frac{\vartheta^2}{2g}\gamma$ ◉

$h=1+\varepsilon \cdot \psi^2 + \vartheta\gamma$ ○

○ h=mv2h

$h=\pi d^2 h$ ○

○ h=mghn

Sual: Hansı halda boru kəmərində təzyiq itkisi az olur? (Çəki: 1)

○ R:D=18

○ R:D=42

◉ R:D=6

○ R:D=2,5

○ R:D=8

Sual: İşçi boru kəmərinə qoşulmuş xətti daştutan əlavə olaraq neçə Pa təzyiq itkisi yaradır? (Çəki: 1)

○ 100-200
○ 500-600
○ 450-500
◉ 200-250
○ 300-320

Sual: SS-15 Seperatoru üçün canlı en kısik sahısini xarakterizə edən əmsal neçə olur? (Çəki: 1)

$9 \div 10$ ○
$10 \div 15$ ○
$18 \div 19$ ○
$4,2 \div 4,5$ ○
$1,5 \div 3,0$ ◉

Sual: Standart havanın parametrlərinə gətirilmiş tam təzyiq necə təyin edilir? (Çəki: 1)

$H_{tam}=H_n\frac{\gamma_0}{\gamma}$ ◉
$H_{tam}=H_nV$ ○
$H_{tam}=H_n\gamma_0$ ○
$H_{tam}=2H_n\gamma_0$ ○
$H_{tam}=2,8VH_n\gamma$ ○

Sual: Həqiqi iş şəraitinə uyğun olaraq ventilyatorun tələb etdiyi güc hansı formul təyin edilir? (Çəki: 1)

$N=\frac{H_{tam}}{2g}$ ○
$N=\frac{Q_{um}+H_{tam}}{102\eta}$ ◉
○ N=280Qum+Htam
○ N=450 Qum+ST
$N=\rho Vh$ ○

BÖLMƏ: 0501

Ad	0501
Suallardan	9
Maksimal faiz	9
Sualları qarışdırmaq	☑
Suallar təqdim etmək	1 %

Sual: Xam pambığın kisələrlə lentli daşıyıcılarda daşınması zamanı məhsuldarlıq hansı formula ilə təyin edilir? (Çəki: 1)

$Q=0,36\frac{VG}{a}$ ◉
$Q=0,3605\frac{VG}{a}$ ○
○ Q=Vga
○ Q=SVG
○ Q=VGS

Sual: Lentli daşıyıcılar üzərində xam pambığın daşınmasında məhsuldarlığı təyin edən formulada G-hərfi nəyi göstərir? (Çəki: 1)
- ○ lentin sürətini
- ◉ bir kisənin çəkisi
- ○ kisələr arasında məsafə
- ○ lentin uzunluğu
- ○ lentin en kəsiyinin sahəsi

Sual: Xam pambığın kisələrlə lentli daşıyıcılarda daşınması zamanı məhsuldarlığı təyin edən formulada V- hərfi nəyi göstərir? (Çəki: 1)
- ○ bir kisənin çəkisini
- ○ lentin uzunluğunu
- ◉ lentin sürətini
- ○ lentin en kəsiyinin sahəsini
- ○ kisələr arasındakı məsafəni

Sual: Xam pambığın kisələrdə daşıyıcılarda daşınması zamanı məhsuldarlığı təyin edən formulada a-hərfi nəyi göstərir? (Çəki: 1)
- ○ bir kisənin çəkisini
- ○ lentin uzunluğunu
- ○ lentin en kəsiyinin sahəsini
- ◉ kisələr arasında məsafəni
- ○ lentin sürətini

Sual: Qablaşdırılmış xam pambığın yük avtomobillərinə doldurma vaxtı hansı formula ilə təyin edilir? (Çəki: 1)
- ○ $t_z=316\frac{Qa}{GV}$
- ○ $t_z=60\frac{SV}{a}$
- ○ tz=QSV
- ○ tz=QaV
- ◉ $t_z=\frac{Qa}{60GV}$

Sual: Qablaşdırılmamış xam pambığın daşınmasında lentli daşıyıcının məhsuldarlığı hansı formula ilə təyin edilir? (Çəki: 1)
- ◉ Q=3,6qV
- ○ Q=360qV
- ○ Q=GVq
- ○ Q=3,6GVq
- ○ Q=PSq

Sual: Qablaşdırılmamış xam pambığın daşınmasında lentli daşıyıcıların məhsuldarlığı formulasında q-hərfi nəyi göstərir? (Çəki: 1)
- ○ lentin sürəti
- ◉ lentin vahid uzunluğunda yükün kütləsi
- ○ lentin uzunluğu
- ○ xam pambığın nəmliyi
- ○ xam pambığın həcm kütləsi

Sual: Qablaşdırılmamış xam pambığın daşınmasında lentli daşıyıcıların məhsuldarlığı formulasında V-hərfi nəyi göstərir? (Çəki: 1)
- ○ lentin uzunluğu
- ○ lentin vahid uzunluğunda kütlə
- ◉ işçi sürət
- ○ xam pambığın nəmliyi
- ○ həcm kütləsi

Sual: Xam pambığın fasiləsiz axını zamanı məhsuldarlıq hansı formula ilə təyin edilir? (Çəki: 1)
- ○ Q=360FMq
- ○ Q=FMqV
- ○ $Q=36KF\rho$
- ◉ $Q=3600FV\rho$
- ○ Q=FSV

BÖLMƏ: 0502

Ad	0502
Suallardan	8
Maksimal faiz	8
Sualları qarışdırmaq	☑
Suallar təqdim etmək	1 %

Sual: 10. Xam pambığın fasiləsiz axını zamanı məhsuldarlığı təyin edən formulada F-hərfi nəyi göstərir? (Çəki: 1)
- ○ lentin üzərində kütlə
- ○ lentlin uzunluğu
- ○ lentin sürəti
- ○ materialın həcm sıxlığı
- ◉ lentdə materialın en kəsiyi

Sual: Lentdə materialın en kəsiyinin qiyməti necə qəbul edilib? (Çəki: 1)
- ◉ 3600F=KB2
- ○ F=KB2
- ○ F=410KB
- ○ F=480KBS
- ○ F=KBH

Sual: Düz lentdə yükləmənin sıxlıq əmsalı necə olur? (Çəki: 1)
- ○ 200-250
- ◉ 400-500
- ○ 800-850
- ○ 550-600
- ○ 650-700

Sual: Maili lentdə yükləmənin sıxlıq əmsalı necə olur? (Çəki: 1)
- ○ 100-130
- ○ 250-280
- ◉ 150-200
- ○ 300-400

○ 470-500

Sual: Lentdə materialın en kəsiyinin qiymətini nəzərə alsaq,orta materialın fasiləsiz axınında məhsuldarlıq necə təyin edilər? (Çəki: 1)

$Q=KF\rho$ ○

$Q=F\rho V$ ○

$Q=36F\rho V$ ○

$Q=KB^2V\rho$ ◉

$Q=KB^2S$ ○

Sual: (Çəki: 1)

Materialın fasilesiz axınında mehsuldarlıq formulasında ρ -herfi neyi gosterir?

○ lentdə materialın en kəsiyi
○ həcm kütləsi
○ lentin sürəti
○ lentin uzunluğu
◉ materialın həcm sıxlığı

Sual: Orta lifli xam pambıq üçün həcm sıxlığı nə qədər olur? (Çəki: 1)

◉ 0,05-0,06
○ 0,5-0,6
○ 0,8-0,9]
○ 1,2-1,5
○ 1,5-1,8

Sual: Zərif lifli xam pambıq üçün həcm sıxlığı nə qədər olur? (Çəki: 1)

○ 0,09-10
◉ 0,07-0,08
○ 0,6-0,5
○ 0,19-0,23
○ 1,5-1,7

BÖLMƏ: 0503

Ad	0503
Suallardan	7
Maksimal faiz	7
Sualları qarışdırmaq	☑
Suallar təqdim etmək	1 %

Sual: Məlum sürətdə və məlum məhsuldarlıqda lentin enini necə təyin etmək olar? (Çəki: 1)

$B=\frac{Q}{KV}$ ○

○ B=SVh
○ B=SV

$B=\frac{\sqrt{Q}}{KV}$ ◉

○ B=126KVQ

Sual: Pambıq zavodlarında əsasən eni neçə mm olan lentlərdən istifadə olunur? (Çəki: 1)
- ○ 300,400
- ○ 250,300
- ○ 720,800
- ○ 620,700
- ◉ 500,600

Sual: Lentli daşıyıcıya tələb olunan ümumi güc necə təyin edilir? (Çəki: 1)
- $N=(N_1+N_2+N_3)R_D$ ◉
- $N=(N_1+N_2)SV$ ○
- $N=216(N_1+N_2+N_3)$ ○
- $N=360(N_1+N_2+N_3)$ ○
- $N=360R_D(N_1+N_2+N_3)$ ○

Sual: Lentli daşıyıcıya tələb olunan güc formulasında N1 hərfi nəyi göstərir? (Çəki: 1)
- ○ yüklə lentli daçıyıcıya tələb olunan güc
- ◉ yüksüz lentli daçıyıcıya tələb olunan güc
- ○ üfüqi istiqamətdə lentli daşıyıcının gücü
- ○ xam pambığın qaldırılmasına tələb olan güc
- ○ qurutmaya sərf edilən güc

Sual: Lentli daşıyıcıya tələb olunan güc formulasında RD hərfi nəyi göstərir? (Çəki: 1)
- ○ gərginlik
- ○ dözümlülük əmsalı
- ◉ əlavə müqavimət əmsalı
- ○ itələmə əmsalı
- ○ yüklənmə əmsalı

Sual: Üfüqi istiqamətdə xam pambığın hərəkətinə tələb edilən güc hansı formula ilə təyin edilir? (Çəki: 1)
- $N_2=SK\alpha$ ○
- $N_2=QHS$ ○
- $N_2=SVH$ ○
- $N_2=R_2QL$ ◉
- $N_2=R_2LV$ ○

Sual: Xam pambığın qaldırılmasına tələb olunan güc hansı formula ilə təyin edilir? (Çəki: 1)
- $N_3=412QHV$ ○
- $N_3=25VH$ ○
- $N_2=R_2LV$ ○
- $N_3=QVH$ ○
- $N_3=\frac{QH}{367}$ ◉

BÖLMƏ: 0601

Ad	0601
Suallardan	8
Maksimal faiz	8
Sualları qarışdırmaq	☑
Suallar təqdim etmək	1 %

Sual: Xam pambığın şaquli nəql olunması üçün hansı elevatorlarından istifadə olunur? (Çəki: 1)
- ◉ EX-15
- ○ EU-34
- ○ TL
- ○ 2SB
- ○ SB

Sual: Aşağıdakılardan hansı EX-15 pambıq elevatorunun əsas işçi hissələrdir? (Çəki: 1)
- ○ lynəli baraban
- ◉ çalovlar
- ○ qidalandırıcı
- ○ voroşitel
- ○ Valik

Sual: EX-15 elevatorunda çalovların addımı neçə mm-ə bərabər olur? (Çəki: 1)
- ○ 800
- ○ 850
- ◉ 600
- ○ 1220
- ○ 900

Sual: EX-15 elevatorunda üçqat pambıq parçadan hazırlanan rezinlənmiş lentin eni neçə mm olur? (Çəki: 1)
- ○ 800
- ○ 850
- ○ 600
- ◉ 500
- ○ 900

Sual: EX-15 elevatorunun lenti hərəkətini elektrik mühərrikindən hansı ötürmə vastəsilə alır? (Çəki: 1)
- ○ əllə
- ○ dartıcı
- ○ dişli
- ○ sepli
- ◉ qayış ötürməsi

Sual: (Çəki: 1)

EX-15 elevatorunda aparan barabanın fırlanma tezliyi 58 deq^{-1} olduqda lentin s?reti ne?e m/san olur?

- ◉ 1,9
- ○ 5
- ○ 8

○ 6
○ 2,2

Sual: EX-1,5 pambıq elevatorunun hündürlüyü neçə metr olur? (Çəki: 1)
○ 4-6
◉ 1,7-2
○ 3-3.5
○ 8-9,5
○ 7- 7,5

Sual: Pambıq elevatorunun məhsuldarlığı hansı formula ilə təyin edilir? (Çəki: 1)
$Q_e = 3,6\ e\varphi\rho$ ○
$Q_e = 360\ e\varphi\rho$ ○
$Q_e = 3,6\ \frac{l}{a}\psi\rho\vartheta$ ◉
$Q_e = 3,6\ \frac{l}{a}\varphi\rho\vartheta$ ○
$Q_e = \varphi\rho al$ ○

BÖLMƏ: 0602

Ad	0602
Suallardan	12
Maksimal faiz	12
Sualları qarışdırmaq	☑
Suallar təqdim etmək	1 %

Sual: Pambıq elevatorunun məhsuldarlığı hansı formulasında e- hərfi nəyi göstərir? (Çəki: 1)
○ çalovlar arası məsafə
○ çalovun dolma əmsalı
○ xam pambığın həcm kütləsi
◉ çalovun tutumu
○ lentin uzunluğu

Sual: Pambıq elevatorunun məhsuldarlığı formulasında a- hərfi nəyi göstərir? (Çəki: 1)
◉ çalovlar arası məsafə
○ çalovun dolma əmsalı
○ xam pambığın həcm kütləsi
○ çalovun tutumu
○ lentin uzunluğu

Sual: (Çəki: 1)
Pambıq elevatorunun m?hsuldarlığı formulasında ψ - herfi neyi gosterir?
○ çalovlar arası məsafə
◉ çalovun dolma əmsalı
○ xam pambığın həcm kütləsi

○ çalovun tutumu
○ lentin uzunluğu

Sual: Pambıq elevatorunda lentin hərəkət sürəti hansı formula ilə təyin edilir? (Çəki: 1)

$\vartheta = nsvk$ ○
$\vartheta = \pi D_s^2 S$ ○
$\vartheta = \frac{\pi D_b n_b}{60}$ ◉
$\vartheta = 3{,}6nsvk$ ○
$\vartheta = 36nsDk$ ○

Sual: (Çəki: 1)
Pambıq elevatorunun lentin hereket s?retini teyin eden formulada n^{σ} -herfi neyi gosterir?

○ barabanın diametri
◉ barabanın fırlanma tezliyi
○ çalovun tutumu
○ çalovun dolma əmsalı
○ çalovlar arası məsafə

Sual: (Çəki: 1)
Pambıq elevatorunun lentin hereket s?retini teyin eden formulada D^{σ} -herfi neyi gosterir?

◉ barabanın diametri
○ barabanın fırlanma tezliyi
○ çalovun tutumu
○ çalovun dolma əmsalı
○ çalovlar arası məsafə

Sual: Pambıq elavatoru üçün çalovların tutum məhsuldarlığını nə qədər olur? (Çəki: 1)

○ 5÷8
○ 1,5÷8
◉ 14,5÷15
○ 15÷18
○ 8÷10

Sual: Pambıq elevatorunun ötürücü barabanına tələb olunan güc hansı formula ilə təyin edilir? (Çəki: 1)

○ N=VHSD
○ N= QeFH
$\vartheta = \frac{\pi D_b n_b}{60}$ ◉
N= 950 αk ○
N= QH$\mu\alpha$ ○

Sual: Burucu momentin təsirindən yükqaldırma mexanizmin barabanında yaranan gərginliyi təyin edin. (Çəki: 1)

$\tau_b = \dfrac{T}{0,2\dfrac{(D^4 - D_1^4)}{D}}$ ◉

$\tau_b = \dfrac{T}{0,1\dfrac{(D^4 - D_1^4)}{D}}$ ○

$\tau_b = \dfrac{S_{max} l}{0,2(D^4 - D_1^4)}$ ○

$\tau_b = \dfrac{S_{max} l}{0,1(D^4 - D_1^4)}$ ○

$\tau_b = \dfrac{S_{max} l}{0,2(D^3 - D_1^3)}$ ○

Sual: İkili polispastlı mexanizmdə barabanın işçi hissəsinin uzunluğunu təyin edin. (Çəki: 1)

$L_k = 2Z \cdot t$ ◉

$L_k = Z \cdot t$ ○

$L_k = \pi \cdot D$ ○

$L_k = d_k(e-1)$ ○

$L_k = d_k e$ ○

Sual: Tökmə texnologiyasından asılı olaraq barabanın divarının qalınlığını (çuqun materiallar) təyin edin. (Çəki: 1)

$\delta = 0,02D + (6...10)$ ◉

$\delta = 0,02D$ ○

$\delta = 0,01D + 3$ ○

$\delta = 0,02D + (16...20)$ ○

$\delta = 0,02D + 25$ ○

Sual: Yükqaldırma mexanizmində təsir edən qüvvələrin təsirindən yaranan cəm gərginliyi təyin edin. (Çəki: 1)

$\sigma_\Sigma = \sqrt{(\sigma_F + \sigma_S)^2 + 3\tau_b^2}$ ◉

$\sigma_\Sigma = \sqrt{(\sigma_F + \sigma_S)^2}$ ○

$\sigma_Z = \sqrt{\sigma_F^2 + \sigma_S^2}$ ○

$\sigma_\Sigma = \sqrt{(\sigma_F + \sigma_S)^2 + \tau_b^2}$ ○

$\sigma_\Sigma = \sqrt{(\sigma_F + \sigma_S)^2 + 2\tau_b^2}$ ○

BÖLMƏ: 0603

Ad	0603
Suallardan	11
Maksimal faiz	11
Sualları qarışdırmaq	☑

Suallar təqdim etmək 1 %

Sual: (Çəki: 1)

Pambıq elevatorunun mehsuldarlığı formulasında ϑ – herfi neyi gosterir?

- (•) lentin hərəkət sürətini
- ( ) xam pambığın həcm kütləsini
- ( ) çalovlararası məsafə
- ( ) çalovun tutumu
- ( ) çalovların dolma əmsalı

Sual: Pambıq elevatorunun ötürücü barabanına tələb olunan güc formulasında H-hərfi nəyi göstərir? (Çəki: 1)

- ( ) materialın həcm kütləsi
- (•) matrealın qaldırılma hündürlüyü
- ( ) ötürücü qurğunun faydalı iş əmsalı
- ( ) lentin hərəkət sürəti
- ( ) çalovun tutumu

Sual: Pambıq elevatorunun ötürücü qurğusunun faydalı iş əmsalı neçədir? (Çəki: 1)

- ( ) 8-8,2
- ( ) 11-12
- ( ) 1-17
- ( ) 0,1-0,3
- (•) 0,7-0,8

Sual: Pambıq elevatorunun ötürücü barabanına tələb olunan güc formulasında K-hərfi nəyi göstərir? (Çəki: 1)

- ( ) materialın həcm kütləsi
- ( ) matrealın qaldırılma hündürlüyü
- ( ) ötürücü qurğunun faydalı iş əmsalı
- ( ) lentin hərəkət sürəti
- (•) elevatorun yüksüz işinə tələb olunan gücün əmsalı

Sual: Məhsuldarlıq 20 T/saat olduqda, elevatorun yüksüz işinə tələb olunan gücün əmsalı neçə olar? (Çəki: 1)

- ( ) 2,0
- (•) 1,15
- ( ) 3,2
- ( ) 4,1
- ( ) 8,0

Sual: Məhsuldarlıq 40 T/saat olduqda, elevatorun yüksüz işinə tələb olunan gücün əmsalı neçə olar? (Çəki: 1)

- ( ) 17,0
- ( ) 2,0
- (•) 1,5
- ( ) 8,0
- ( ) 6,2

Sual: Xam pambıq elevatoru quraşdırılanda yuxarı və aşağı barabanlar arasında hansı aslılıq gözlənilməlidir? (Çəki: 1)

- ○ bərabərlik
- ○ maillilik
- ○ perpendikulyar
- ◉ parallelik
- ○ sabitlik

Sual: Baraban üzərinə dolanacaq kanatın uzunluğunu təyin edin (Çəki: 1)

- ◉ $L_H = i_n \cdot H$
- ○ $L_H = Z \cdot t$
- ○ $L_H = \pi \cdot D$
- ○ $L_H = i_n \cdot H + \pi D$
- ○ $L_H = i_n \cdot H + Zt$

Sual: Barabanın diametrini (yükqaldırma mexanizmində) təyin edin. (Çəki: 1)

- ◉ $D_b = d_k(e-1)$
- ○ $D_b = d_k(e+1)$
- ○ $D_b = \frac{A}{d_k}$
- ○ $D_b = \frac{\pi d_1^2}{e}$
- ○ $D_b = d_k(e-2)$

Sual: Sadə polispastlı mexanizmdə barabanın işçi hissəsinin uzunluğunu təyin edin. (Çəki: 1)

- ◉ $L_k = Z \cdot t$
- ○ $L_k = 2Z \cdot t$
- ○ $L_k = d_k \cdot e$
- ○ $L_k = d_k \cdot (e-1)$
- ○ $L_k = Z \cdot t + d_k \cdot e$

Sual: Tökmə texnologiyasından asılı olaraq barabanın divarının qalınlığını polad materiallar üçün təyin edin. (Çəki: 1)

- ◉ $\delta = 0,01D + 3$
- ○ $\delta = 0,02D$
- ○ $\delta = 0,02D + (6...10)$
- ○ $\delta = 0,02D + 8$
- ○ $\delta = 0,02D + 12$

BÖLMƏ: 0701

Ad	0701
Suallardan	12
Maksimal faiz	12
Sualları qarışdırmaq	☑

Suallar təqdim etmək 1 %

Sual: Xam pambığı traktor və ya yük avtomobillərindən qəbul edib digər nəqliyyat vasitələrinə ötürülən qurğu hansıdır? (Çəki: 1)
- ◉ PLA
- ○ STB
- ○ TL
- ○ STB
- ○ PK

Sual: Çivli elevatorun çivlərinin hündürlüyü neçəmm olur? (Çəki: 1)
- ○ 100
- ◉ 150
- ○ 210
- ○ 300
- ○ 450

Sual: Çivli elevatora addımmı neçə mm olan lövhələr bərkidilir? (Çəki: 1)
- ○ 20
- ○ 35
- ◉ 40
- ○ 45
- ○ 57

Sual: PLA qidalandırıcısının üfüqi transportyorunun məhsuldarlığı hansı formula ilə müəyyən edilir? (Çəki: 1)
- $Q_?=Avh_\rho$ ○
- $Q_u=SVh_\rho$ ○
- $N_{\Phi}=\frac{W}{367\mu}\sum QkL$ ○
- $3,6h_0bV_{e\rho}=Q_?$ ◉
- ○ Q=360bST

Sual: (Çəki: 1)
Ufuqi transportyorda mehsuldarlığın formulasında B-herfi neyi gosterir?
- ◉ xam pambığın kütləsinin enini
- ○ xam pambıq kütləsinin hündürlüyünü
- ○ lentin enini
- ○ lentin uzunluğunu
- ○ xam pambığın nəmliyini

Sual: Ufuqi transportyorda mehsuldarlığın formulasında b-herfi neyi gosterir? (Çəki: 1)
- ◉ xam pambığın kütləsinin enini
- ○ xam pambıq kütləsinin hündürlüyünü
- ○ lentin enini
- ○ lentin uzunluğunu
- ○ xam pambığın nəmliyini

Sual: Maili transportyorun məhsuldarlığı hansı formula ilə təyin edilir? (Çəki: 1)

$Q_m=360B\rho V_m$ ○

$Q_m=3,65SB\rho\frac{Vm}{B1}$ ◉

$Q_m=3,65\frac{Vm}{B1}$ ○

$Q_m=3,65B\rho V_mk$ ○

$Q_m=3,6B\rho V_m$ ○

Sual: Anbarlarda orta mal ehtiyatını müəyyən edin: (Çəki: 1)

$Q_{or}=\frac{Q_y\cdot G}{360}$ ◉

$Q_{or}=\frac{Q_y+G}{360}$ ○

$Q_{or}=Q_y\cdot G$ ○

$Q_{or}=\frac{Q_y\cdot G}{30}$ ○

$Q_{or}=\frac{Q_y\cdot G}{24}$ ○

Sual: II qrupa aid olan avtomobilin yükgötürmə qabiliyyəti neçə tondur? (Çəki: 1)

◉ 1.5....2.5
○ > 7
○ 4....7
○ 1.5
○ 2.5....4

Sual: III qrupa aid olan avtomobilin yükgötürmə qabiliyyəti neçə tondur? (Çəki: 1)

◉ 2.5....4
○ > 7
○ 1.5....2.5
○ 2.4....4
○ 1.5

Sual: IV qrupa aid olan avtomobilin yükgötürmə qabiliyyəti neçə tondur? (Çəki: 1)

◉ 4....7
○ 2.5....4
○ 1.5....2.5
○ > 7
○ 1.5

Sual: Postun buraxıcılıq qabiliyyətini təyin edin: (Çəki: 1)

$A=\frac{T}{t\cdot\lambda}$ ◉

$A=\frac{T}{t}\cdot 100$ ○

$A=t\cdot\lambda$ ○

$A=\frac{T}{t\cdot 100}$ ○

$A=\frac{T+t}{\lambda}$ ○

BÖLMƏ: 0702

Ad	0702
Suallardan	4
Maksimal faiz	4
Sualları qarışdırmaq	☑
Suallar təqdim etmək	1 %

Sual: Maili transportyorun məhsuldarlığı formulasında S-hərfi nəyi göstərir? (Çəki: 1)
- ○ lentin sürətini
- ○ çivlərin addımı
- ○ xam pambığın həcm kütləsi
- ◉ xam pambıq prizmasının en kəsik sahəsi
- ○ lentin uzunluğunu

Sual: (Çəki: 1)
Xam pambığın sıxlığı 100-150kq/m^3 olduqda mehsuldarlıq nece olar?
- ○ 55-70 t/saat
- ◉ 15-40 t/saat
- ○ 71-80 t/saat
- ○ 85-87
- ○ 110-130 t/saat

Sual: Hal-hazırda ən çox istifadə olunan lentli transportyorlar hansılardır? (Çəki: 1)
- ○ TAK,TSV
- ○ TU
- ○ TPL-10,TST
- ○ TLPQ-2
- ◉ TLX-18,TL

Sual: TLX-18 lentli transportyoru neçə seksiyadan ibarətdir? (Çəki: 1)
- ◉ 3
- ○ 5
- ○ 8
- ○ 6
- ○ 4

BÖLMƏ: 0703

Ad	0703
Suallardan	10
Maksimal faiz	10
Sualları qarışdırmaq	☑
Suallar təqdim etmək	1 %

Sual: TLX-18 transportyorunun məhsuldarlığı 1saatda neçə kq-dır? (Çəki: 1)
- ○ 30.000

◉ 20.000
○ 25.000
○ 42.000
○ 55.000

Sual: TLX-18 transportyorunun qülləsinin maksimum hündürlüyü neçə metrdir? (Çəki: 1)
○ 22
○ 18,5
◉ 12,125
○ 19
○ 28,7

Sual: TLX-18 transportyorunun lentinin hərəkət sürəti nə qədərdir? (Çəki: 1)
○ 5 m/san
○ 3,5 m/san
○ 6,2 m/san
◉ 2,9 m/san
○ 12,7 m/san

Sual: TL transportyorunun məhsuldarlığı 1saatda neçə tondur? (Çəki: 1)
○ 85-90
○ 20-22
○ 10-15
○ 50-55
◉ 35-40

Sual: TL transportyorun lentinin hərəkət sürəti necədir? (Çəki: 1)
◉ 5,5 m/san
○ 8,5 m/san
○ 7 m/san
○ 12 m/san
○ 18,5 m/san

Sual: TL transportyorunun lentinin eni neçə mm-dir? (Çəki: 1)
○ 430
◉ 650
○ 510
○ 820
○ 550

Sual: I qrupa aid olan avtomobilin yükgötürmə qabiliyyəti neçə tondur? (Çəki: 1)
◉ 1.5
○ 1.5....2.5
○ 2.5....4
○ 4....7
○ > 7

Sual: Kanatın barabana bərkidildiyi yerdə boltun çəkilmə qüvvəsini təyin edin. (Çəki: 1)

◉ $N = \frac{S_\delta}{(f + f_1)(e^{f\alpha} + 1)}$

○ $N = \frac{S_\delta}{f(e^{f\alpha} + 1)}$

$$N = \frac{S_b}{f\left(e^{f\alpha}+1\right)}$$ ○

$$N = \frac{S_b}{(f+f_1)e^{f\alpha}}$$ ○

$$N = \frac{S_b}{(f-f_1)\left(e^{f\alpha}-1\right)}$$ ○

Sual: Kanatın barabana bərkidildiyi yerdə yaranan cəm gərginliyini təyin edin. (Çəki: 1)

$$\sigma_\Sigma = \frac{4\cdot 1,3\cdot K\cdot N}{\pi d_1^2} + \frac{KTl}{0,1d_1^3}$$ ◉

$$\sigma_\Sigma = \frac{K\cdot Tl}{0,1d_1^3}$$ ○

$$\sigma_\Sigma = \frac{4\cdot 1,3\cdot K\cdot N}{\pi d_1^2}$$ ○

$$\sigma_\Sigma = \frac{4\cdot K\cdot N}{\pi d_1^2} + \frac{KTl}{d_1^3}$$ ○

$$\sigma_\Sigma = \frac{1,3\cdot K\cdot N}{\pi d_1^2} + \frac{KTl}{0,1d_1^3}$$ ○

Sual: Yükləmə - boşaltma məntəqəsində postun məhsuldarlığını müəyyən edin: (Çəki: 1)

$Q_p = A\cdot q\cdot \gamma$ ◉

$$Q_p = \frac{A}{q\cdot\gamma}$$ ○

$$Q_p = \frac{Aq}{\gamma}$$ ○

$$Q_p = \frac{A\cdot\gamma}{q}$$ ○

$Q_p = A\cdot\gamma$ ○

BÖLMƏ: 0801

Ad	0801
Suallardan	12
Maksimal faiz	12
Sualları qarışdırmaq	☑
Suallar təqdim etmək	1 %

Sual: Çiyidn daşınması hansı elevatorlarla aparılır? (Çəki: 1)

◉ Çalovlu
○ Yivli
○ Lentli
○ Avtokar
○ Qaldırıcı

Sual: .ES-14 çalovlu elevatorunun əsas hissəsi hansıdır? (Çəki: 1)

○ Çarx
◉ Lenta

○ Düyün
○ Sargı]
○ Ekssentrik

Sual: ES-14 çalovlu elevatorunun əsas hissəsi hansıdır? (Çəki: 1)
○ Çarx
○ Kələf
◉ Çalov
○ Daş
○ İplik

Sual: ES-14 çalovlu elevatorunda çalovlar lentə necə birləşdirilir? (Çəki: 1)
○ Cüt
○ Üst-üstə
○ Biri birinin altında
◉ Biri brindən aralı
○ Biri birinin üstündə

Sual: ES-14 çalovlu elevatorunda hansı diametrli barabana taxılır? (Çəki: 1)
○ 200 mm
○ 350 mm
○ 470 mm
○ 110 mm
◉ 500 mm

Sual: ES-14 çalovlu elevatorunda yuxarıda yerləşən baraban necə adlanır? (Çəki: 1)
◉ Hərəkət verici
○ Saxlayıcı
○ Sıxıcı
○ Axıcı
○ Yuyucu

Sual: .ES-14 çalovlu elevatorunda aşağıda yerləşən baraban necə adlanır? (Çəki: 1)
○ Hərəkət verici
◉ Sıxıcı
○ Saxlayıcı
○ Axıcı
○ Yuyucu

Sual: Kranın naryadda vaxtdan istifadə əmsalı müəyyən edin: (Çəki: 1)

$\eta = \frac{T - T_k}{T}$ ◉

$\eta = \frac{T - T_k}{100}$ ○

$\eta = \frac{T}{100}$ ○

$\eta = \frac{T_k}{100}$ ○

$\eta = \frac{T_k}{T} \cdot 100$ ○

Sual: Vintli konveyerdə ağır hərəkət edən yüklər üçün vintin addımı nə qədər qəbul edilir? (Çəki: 1)

- $t = 0,8D$ ◉
- $t = 0,5D$ ○
- $t = D$ ○
- $t = 2D$ ○
- $t = 0,7D$ ○

Sual: Vintli konveyerin məhsuldarlığını təyin edin. (Çəki: 1)

- $Q = 47D^2 \cdot t \cdot n \cdot \gamma \cdot C$ ◉
- $Q = \frac{\pi D^2}{4} \cdot t \cdot n \cdot \psi \cdot \gamma \cdot C$ ○
- $Q = D^2 \cdot t \cdot n \cdot \psi \cdot \gamma \cdot C$ ○
- $Q = 60 \cdot \pi D^2 \cdot t \cdot n \cdot \psi \cdot \gamma \cdot C$ ○
- $Q = 0,047D^2 \cdot t \cdot n \cdot \gamma \cdot C$ ○

Sual: Vintli konveyerin maksimum buraxlla bilən fırlanma tezliyini təyin edin (Çəki: 1)

- $n_{max} = A/\sqrt{D}$ ◉
- $n_{max} = A \cdot \sqrt{D}$ ○
- $n_{max} = A \cdot \sqrt[3]{D}$ ○
- $n_{max} = A/\sqrt[3]{D}$ ○
- $n_{max} = A \cdot \vartheta \cdot \gamma$ ○

Sual: Vintli konveyerin valının tələb olunan gücü təyin edin (kVt-la). (Çəki: 1)

- $P = \frac{Q}{367}(H + L\omega_0)$ ◉
- $P = Q(H + L\omega_0)$ ○
- $P = \frac{Q}{955}(H + L\omega_0)$ ○
- $P = \frac{Q}{9550}(H + L\omega_0)$ ○
- $P = T : n$ ○

BÖLMƏ: 0802

Ad	0802
Suallardan	6
Maksimal faiz	6
Sualları qarışdırmaq	☑
Suallar təqdim etmək	1 %

Sual: ES-14 çalovlu elevatorunun örtüyü hansı əsas hissədən ibarətdir? (Çəki: 1)

- ○ Lentdən
- ○ Çalovdan
- ◉ Yuxarı başlıqdan
- ○ Yivdən
- ○ Ötürücüdən

Sual: ES-14 çalovlu elevatorunun örtüyü hansı əsas hissədən ibarətdir? (Çəki: 1)
- ○ Lentdən
- ○ Çalovdan
- ○ Yivdən
- ◉ Qutudan
- ○ Ötürücüdən

Sual: ES-14 çalovlu elevatorunun örtüyü hansı əsas hissədən ibarətdir? (Çəki: 1)
- ○ Lentdən
- ○ Çalovdan
- ○ Yivdən
- ○ Ötürücüdən
- ◉ Ayaqqabıdan

Sual: ES-14 çalovlu elevatoru hansı fırlanma hərəkəti edir? (Çəki: 1)
- ◉ Fərdi
- ○ Rəqsi
- ○ Düzxətli
- ○ Bərabərsürətli
- ○ Əksinə

Sual: ES-14 çalovlu elevatorunda lentin eni neçə mm olur? (Çəki: 1)
- ○ 470
- ◉ 350
- ○ 210
- ○ 300
- ○ 120

Sual: ES-14 çalovlu elevatorunda lentin sürəti neçə m/san olur? (Çəki: 1)
- ○ 3
- ○ 5
- ◉ 1,4
- ○ 10
- ○ 8

BÖLMƏ: 0803

Ad	0803
Suallardan	12
Maksimal faiz	12
Sualları qarışdırmaq	☑
Suallar təqdim etmək	1 %

Sual: ES-14 çalovlu elevatorunun məhsuldarlığı neçə çiyid/saat olur? (Çəki: 1)
- ○ 17
- ○ 8
- ○ 12
- ◉ 14
- ○ 19

Sual: Elevatorda məhsuldarlıq əsasən hansı amildən asılıdır? (Çəki: 1)
- ○ Çiyiddən
- ○ Xam pambıqdan
- ○ Uzunluqdan
- ○ Endən
- ◉ Hündürlükdən

Sual: ES-14 çalovlu elevatorunda çalovların geometrik tutumu neçə litirdir? (Çəki: 1)
- ◉ 1,5
- ○ 2,7
- ○ 8
- ○ 5
- ○ 6

Sual: Çiyidin çalovlarla dolma əmsalı necə olur? (Çəki: 1)
- ○ 0,1 - :- 0,5
- ◉ 0,7 - :- 0,8
- ○ 1 - :- 1,7
- ○ 4 - :- 5,6
- ○ 2,7 - :- 3

Sual: Tullantıların çalovlarla dolma əmsalı necə olur? (Çəki: 1)
- ○ 1 - :- 1,7
- ○ 0,4 - :- 0,5
- ○ 0,1 - :- 0,3
- ◉ 0,6 - :- 0,7
- ○ 10 - :- 12

Sual: ES-14 çalovlu elevatorunda 1 metr lentin üzərinə neçə ədəd çalov quraşdırılır? (Çəki: 1)
- ○ 4
- ○ 5
- ◉ 7
- ○ 3
- ○ 12

Sual: Çiyidin şaquli daşınmasında hansı elevatorlardan istifade olunur? (Çəki: 1)
- ○ EL
- ○ EMD
- ○ VK
- ○ EDS
- ◉ ELQ

Sual: Çiyidin şaquli daşınmasında hansı elevatorlardan istifade olunur? (Çəki: 1)
- ◉ ELM
- ○ ELU
- ○ VK
- ○ EMD
- ○ QDS

Sual: Asma konveyerin aparan ulduzcuğun dartı qüvvəsi W verilərsə (N-la) mühərrikin tələb olunan gücünü təyin edin (kVt-la). (Çəki: 1)

$P = \frac{W\vartheta}{}$ ◉

$\frac{}{1000\eta}$

$P = \frac{W\vartheta}{\eta}$ ○

$P = \frac{W\vartheta}{102\eta}$ ○

$P = \frac{W\vartheta}{75\eta}$ ○

$P = \frac{W\vartheta}{6120\eta}$ ○

Sual: Asma konveyerin məhsuldarlığı Z ədəd/saat-la verilərsə, konveyerin sürətini təyin edin (m/san ilə). (Çəki: 1)

$\vartheta = \frac{Z \cdot a_a}{3600}$ ◉

$\vartheta = Z \cdot a_a$ ○

$\vartheta = \frac{Z \cdot a_a}{3,6}$ ○

$\vartheta = \frac{Z}{3600}$ ○

$\vartheta = \frac{Z}{3,6}$ ○

Sual: Kranın hərəkət etmə vaxtını müəyyən edin: (Çəki: 1)

$T_k = n(\frac{K}{v} + t_y)$ ◉

$T_k = n \cdot \frac{K}{v}$ ○

$T_k = n \cdot t_y$ ○

$T_k = \frac{n \cdot K}{v}$ ○

$T_k = n(K + t_y)$ ○

Sual: Qollu kranlar üçün xüsusi metal əmsalını müəyyən edin: (Çəki: 1)

$K_m = \frac{m}{F \cdot R}$ ◉

$K_m = \frac{m}{F}$ ○

$K_m = \frac{F}{R}$ ○

$K_m = F \cdot R$ ○

$K_m = \frac{m \cdot 100}{F}$ ○

BÖLMƏ: 0901

Ad	0901
Suallardan	9
Maksimal faiz	9
Sualları qarışdırmaq	☑
Suallar təqdim etmək	1 %

Sual: Çiyid linterlərə hansı konveyerlər vasitəsilə verilir? (Çəki: 1)
- ◉ yivli
- ○ çalovlu
- ○ lentli
- ○ dişli
- ○ kolkovalı

Sual: Linterlənmiş çiyid hansı konveyerlə nəql edilir? (Çəki: 1)
- ○ çalovlu
- ◉ yivli
- ○ dişli
- ○ kolkovalı
- ○ lentli

Sual: Lifli tullantılar hansı konveyerlə daşınır? (Çəki: 1)
- ○ lentli
- ◉ yivli
- ○ dişli
- ○ kolkovalı
- ○ çalovlu

Sual: Aşağıdakılardan hansı yivli konveyerin əsas hissələrdəndir? (Çəki: 1)
- ○ işçi kamera
- ○ iynə
- ○ lent
- ◉ novalça
- ○ baraban

Sual: Aşağıdakılardan hansı yivli konveyerin əsas hissələrindəndir? (Çəki: 1)
- ○ baraban
- ○ lent
- ○ iynə
- ○ işçi kamera
- ◉ diyircək

Sual: Yivli konveyerin navalçasının dəmirinin qalınlığı neçə mm olmalıdır? (Çəki: 1)
- ◉ 3
- ○ 5
- ○ 4
- ○ 7
- ○ 16

Sual: Konveyerin yivi necə yığılır? (Çəki: 1)
- ○ kaprondan
- ◉ ayrı-ayrı hissələrdən
- ○ iynələrdən
- ○ pambıq parçadan
- ○ rezindən

Sual: Konveyerin yivinin hissələri bir-birinə nə ilə birləşdirilir? (Çəki: 1)
- ○ dəmirlə
- ○ latunla
- ◉ valiklərlə
- ○ yapışqanla
- ○ xamutla

Sual: Yivli konveyerin yivinin diametri neçə mm olur? (Çəki: 1)
- ○ 450
- ○ 375
- ○ 670
- ◉ 300
- ○ 210

BÖLMƏ: 0902

Ad	0902
Suallardan	11
Maksimal faiz	11
Sualları qarışdırmaq	☑
Suallar təqdim etmək	1 %

Sual: Yivli konveyerin yivinin addımı neçə mm olur? (Çəki: 1)
- ○ 430
- ○ 230
- ○ 520
- ○ 300
- ◉ 225

Sual: Yivli konveyerdə yivin arası ilə novalça arasında necə mm aralıq saxlanılmalıdır? (Çəki: 1)
- ◉ 9-15
- ○ 20-25
- ○ 30-35
- ○ 40-50
- ○ 5-7

Sual: Yivli konveyerdə nov necə bağlanır? (Çəki: 1)
- ○ hava ilə
- ◉ qapaqla
- ○ parça ilə
- ○ rezinlə
- ○ kələflə

Sual: Yivli konveyerin məhsuldarlığı hansı formula ilə təyin edilir? (Çəki: 1)

$Q_e = 365\ \varphi p \vartheta$ ○

$Q_e = 8{,}2\ lp\vartheta$ ○

$Q_e = 3{,}6\frac{l}{a}\varphi p \vartheta$ ◉

l ○

$Q_e = 3,6\bar{a}$

$Q_e = 3,6\frac{l}{\bar{a}}\varphi p$ ○

Sual: Yivli konveyerin məhsuldarlığını təyin edən formulda l nəyi göstərir? (Çəki: 1)
- ○ çalovlar arası məsafə
- ○ lentin sürəti
- ○ çalovun diametri
- ◉ çalovun tutumu
- ○ çalovun həcm kütləsi

Sual: Yivli konveyerin məhsuldarlığını təyin edən formulda a- hərfi nəyi göstərir? (Çəki: 1)
- ◉ çalovlar arası məsafə
- ○ lentin sürəti
- ○ çalovun diametri
- ○ çalovun həcm kütləsi
- ○ çalovun tutumu

Sual: (Çəki: 1)

Yivli konveyerin m?hsuldarlığını teyin eden formulda φ - herfi neyi g?sterir?

- ○ çalovlar arası məsafə
- ○ lentin sürəti
- ○ çalovun diametri
- ◉ çalovun dolma əmsalı
- ○ çalovun həcm kütləsi

Sual: Yivli konveyerində çalovun çiyidlə dolma əmsalı nə qədər olur? (Çəki: 1)
- ○ 1-2,5
- ○ 3-4,2
- ◉ 0,35- 0,5
- ○ 0,8- 1
- ○ 2,1-3,8

Sual: Yivli konveyerində çalovun tulantılarla dolma əmsalı nə qədər olur? (Çəki: 1)
- ○ 2-4
- ○ 3-4
- ○ 0,7- 0,9
- ◉ 0,35-0,4
- ○ 0,75-1

Sual: Yivli konveyerin məhsuldarlığını təyin edən formulda p hərfi nəyi göstərir? (Çəki: 1)
- ○ çalovun dolma əmsalı
- ○ lentin sürəti
- ○ çalovun diametri
- ○ çalovun tutumu
- ◉ çalovun həcm kütləsi

Sual: Yivli konveyerdə çiyid üçün çalovun həcm kütləsi nə qədər olur? (Çəki: 1)
- ◉ 90-100
- ○ 50-70
- ○ 210-320
- ○ 10-15
- ○ 24-32

BÖLMƏ: 0903

Ad	0903
Suallardan	7
Maksimal faiz	7
Sualları qarışdırmaq	☑
Suallar təqdim etmək	1 %

Sual: Yivli konveyerdə tulantılar üçün çalovun həcm kütləsi nə qədər olur? (Çəki: 1)
- ○ 90-100
- ◉ 60-70
- ○ 300-320
- ○ 8-21
- ○ 24-32

Sual: Yivli konveyerin lentinin sürəti necə təyin edilir? (Çəki: 1)

$\vartheta = \pi DV$ ○

$\vartheta = \pi DVn$ ○

$\vartheta = \frac{\pi D_b n_b}{60}$ ◉

$\vartheta = 60\pi D_b n_b$ ○

Xam pambığın boşaldılması zamanı eyilme bucağını teyin eden formulda ρ herfi neyi gosterir? ○

Sual: Yivli konveyerin lentinin sürəti necə təyin edən formulada Db –hərfi nəyi göstərir? (Çəki: 1)
- ○ barabanın həcmin
- ○ çalovlar arası məsafə
- ○ lentin uzunluğu
- ◉ barabanın diametri
- ○ lentin enini

Sual: Yivli konveyerin lentinin sürəti necə təyin edən formulada nb –hərfi nəyi göstərir? (Çəki: 1)
- ○ barabanın həcmin
- ○ çalovlar arası məsafə
- ○ lentin uzunluğu
- ○ barabanın diametri
- ◉ barabanın fırlanma tezliyi

Sual: Yivli konveyerdə konveyerin yivinin fırlanma tezliyi necə seçilir? (Çəki: 1)
- ◉ məhsuldarlığa görə

- ○ çiyidin həcminə görə
- ○ çalovun tutumuna görə
- ○ lentin diametrinə görə
- ○ barabanın həcminə görə

Sual: Çiyid üçün konveyerin yivinin fırlanma tezliyi 80-120 dövr/dəq olduqda, məhsuldarlıq nə qədər olur? (Çəki: 1)

- ◉ 9-12 t
- ○ 24- 32 t
- ○ 25- 26 t
- ○ 180 -215 t
- ○ 1- 2 t

Sual: Sərbəst halda yivli konveyerin uzunluğu neçə metr olur? (Çəki: 1)

- ○ 80
- ◉ 40
- ○ 14
- ○ 50
- ○ 8

BÖLMƏ: 1001

Ad	1001
Suallardan	14
Maksimal faiz	14
Sualları qarışdırmaq	☑
Suallar təqdim etmək	1 %

Sual: Pnevmatik nəqliyyat qurğusunun məhsuldarlığı hansı əsas parametrlərdən aslıdır? (Çəki: 1)

- ◉ borunun uzunluğundan və yerli şəraitdən
- ○ borunun en kəsiyinin sahəsindən
- ○ sexin nəmliyindən
- ○ Xam pambığın zibilliyindən
- ○ lintin nəmliyindən

Sual: Pnevmatik nəqliyyat qurğusunun ventilyatorun iş rejiminin tənzimlənməsi nə üçün həyata keçirilir? (Çəki: 1)

- ○ məhsuldarlığı nizamlamaq üçün
- ◉ hava itkisini idarə etmək üçün
- ○ lentin işini tənzimləmək üçün
- ○ çalovon yükünü azaltmaq üçün
- ○ borunun yükünü nizamlamaq üçün

Sual: Pnevmatik nəqliyyat qurğusunun iş rejiminin tənzimlənməsinin ən sərfəli metodu hasıdır? (Çəki: 1)

- ○ parametrləri dəyişməyənlər
- ○ faydalı iş əmsalını artırmaq
- ◉ parametrləri geniş diapazonda dəyişənlər
- ○ faydalı iş əmsalını azaltmaq
- ○ enerji verilməsini tənzimləmək

Sual: Pnevmatik nəqliyyat qurğusunun ventilyatorun iş rejiminin nizamlanmasının ən sadəsi hansıdır? (Çəki: 1)
- ○ şuntlama
- ○ didmə
- ○ birləşdirmə
- ◉ droselləmə
- ○ dartma

Sual: Droselləmə nə deməkdir? (Çəki: 1)
- ○ dartma
- ○ yandırma
- ○ birləşdirmə
- ○ didmə
- ◉ səthin müqavimətini artırmaq

Sual: Yükləmə-boşaltma vasitələrinin şərti işarəsində БК (BK) hansı kranı göstərir? (Çəki: 1)
- ◉ qülləli kran
- ○ qollu kran
- ○ bir çalovlu ekskavator
- ○ xüsusi quraşdırma kranı
- ○ elektrokar

Sual: Yükləmə-boşaltma vasitələri yüklərin yükləmə növünə görə neçə qrupa bölünür? (Çəki: 1)
- ◉ 5
- ○ 2
- ○ 3
- ○ 4
- ○ 1

Sual: Yükləmə-boşaltma vasitələrinin şərti işarələnməsində ЛЭ (LE) nə adlanır? (Çəki: 1)
- ◉ elektrik bucurğadı
- ○ qollu kran
- ○ xüsusi quraşdırma kranı
- ○ qülləli kran
- ○ elektrokar

Sual: Yükləmə-boşaltma vasitələrinin şərti işarəsində КС (KS) hansı kranı göstərir? (Çəki: 1)
- ◉ qollu kran
- ○ xüsusi quraşdırma kranı
- ○ bir çalovlu ekskavator
- ○ elektrik bucurğadı
- ○ elektrokar

Sual: Konteynerlərin hərəkət tərkibinə verilmə ritmini müəyyən edin: (Çəki: 1)

$R_k = \frac{q_k \cdot \gamma_k \cdot n_k}{Q_s}$ ◉

$R_k = \frac{q_k \cdot \gamma_k}{Q_s}$ ○

$R_k = \frac{q_k \cdot \gamma_k}{Q_s} \cdot 100$ ○

$R_k = q_k \cdot \gamma_k n_k$ ○

$R_k = \frac{\gamma_k \cdot n_k}{Q_s}$ ○

Sual: Konteynerlərin sayını müəyyən edin: (Çəki: 1)

$K_s = \frac{Q_k \cdot t_{kd}}{q_k \cdot \gamma_k}$ ◉

$K_s = \frac{Q_k}{q_k \cdot \gamma_k}$ ○

$K_s = \frac{Q_k \cdot t_{kd}}{q_k}$ ○

$K_s = \frac{Q_k \cdot t_{kd}}{\gamma_k}$ ○

$K_s = \frac{t_{kd}}{\gamma_k \cdot q_k}$ ○

Sual: Paket altlıqların sayını müəyyən edin: (Çəki: 1)

$A_k = \frac{Q \cdot t_{ad} \cdot \eta_e}{q_a}$ ◉

$A_k = \frac{Q}{q_a}$ ○

$A_k = \frac{Q \cdot \eta_e}{q_a}$ ○

$A_k = Q \cdot t_{ad} \cdot \eta_e$ ○

$A_k = \frac{t_{ad} \cdot \eta_e}{q_a}$ ○

Sual: Tələb edilən avtomobillərin sayını müəyyən edin: (Çəki: 1)

$A = \frac{i \cdot \psi \cdot n \cdot t_{dön}}{60q}$ ◉

$A = i \cdot \psi \cdot n \cdot t_{dön}$ ○

$A = 60i \cdot \psi \cdot n \cdot t_{dön}$ ○

$A = 3600i \cdot \psi \cdot n \cdot t_{dön}$ ○

$A = \frac{i \cdot \psi \cdot n \cdot}{60q}$ ○

Sual: Yükləmə maşını hərəkət tərkibinin vahid yükləmə vaxını müəyyən edin (Çəki: 1)

$T = \frac{60q}{i\psi n}$ ◉

$T = \frac{24q}{i\psi n}$ ○

$T = \frac{360q}{i\psi n}$ ○

$T = \frac{360q}{in}$ ○

$T = \frac{60q}{\psi n}$ ○

BÖLMƏ: 1002

Ad	1002
Suallardan	13
Maksimal faiz	13
Sualları qarışdırmaq	☑
Suallar təqdim etmək	1 %

Sual: Pnevmatik nəqliyyat qurğusunun ventilyatorun iş rejiminin tənzimlənməsinin ən sərfəli üsulu hansıdır? (Çəki: 1)
- ◉ fırlanma tezliyinin azaldılması
- ○ droselləmə
- ○ dartma
- ○ didmə
- ○ borunun uzunluğunu azaltmaq

Sual: Xam pambıq sex daxili və sexlər arası hansı vasitələrlə daşınır? (Çəki: 1)
- ○ avtotraktorlarla
- ◉ pnevmatik qurğular ilə
- ○ dişli çarxlarla
- ○ ötürücü vallarla
- ○ sepli ötürmələrlə

Sual: Sex daxili pnevmatik qurğularda hansı ventilyatorlar istifadə olunur? (Çəki: 1)
- ○ vurucu
- ○ dayanaqlı
- ◉ sorucu
- ○ tərpənməz
- ○ təcili

Sual: Sexdaxili və sexlər arası pnevmatik qurgulardakı hansı rolu oynayır? (Çəki: 1)
- ○ yayıcı
- ○ dartıcı
- ○ ayırıcı
- ◉ birləşdirici
- ○ vurucu

Sual: Pambıqtəmizləmə zavodlarında pambıq çiyidinin ikinci və üçüncü təmizləmə üçün linter maşınlarına verilməsi hansı pnevmatik nəqliyyat qurğuları ilə aparılır? (Çəki: 1)
- ○ UAV
- ○ UAD
- ○ UAS
- ○ USC
- ◉ USM

Sual: Pnevmatik nəqliyyat qurğularında havanın sürətinin artırılması müqavimət əmsalına necə təsir edir? (Çəki: 1)
- ◉ azalır
- ○ artır
- ○ dəyişən olur
- ○ sabit qalır

○ bərabər dəyişir

Sual: Pnevmatik nəqliyyat qurğularında borunun diametrinin artırılması müqavimət əmsalına necə təsir edir? (Çəki: 1)

○ azalır
◉ artır
○ dəyişən olur
○ sabit qalır
○ bərabər dəyişir

Sual: Pnevmatik nəqliyyat qurğularında havanın surətinin artırılması çiyidin nisbi surətinə necə təsir edir? (Çəki: 1)

○ dəyişən olur
○ artır
◉ azalır
○ sabit qalır
○ bərabər dəyişir

Sual: Pnevmatik nəqliyyat qurğusunda çiyidin nisbi sürətinin azalması zamanı borunun en kəsiyində çiyid necə paylanır? (Çəki: 1)

○ orta
○ qarışıq
○ sabit
◉ bərabər
○ azalır

Sual: Barabana sarınan kanatın maksimum gərilmə qüvvəsini təyin edin. (Çəki: 1)

◉ $S_{max} = \frac{Q}{a \cdot i_n \cdot \eta_n}$

○ $S_{max} = \frac{Q}{i_n}$

○ $S_{max} = \frac{Q}{a \cdot \eta_n}$

○ $S_{max} = \frac{Q \cdot a}{i_n \cdot \eta_n}$

○ $S_{max} = \frac{Q}{a}$

Sual: Müasir domkratlarla neçə ton yük qaldırmaq olar? (Çəki: 1)

◉ 500
○ 550
○ 600
○ 650
○ 700

Sual: Sadə domkratlarla neçə metr hündürlüyə yük qaldırmaq olar? (Çəki: 1)

◉ 1
○ 0,5
○ 1,5
○ 2
○ 2,5

Sual: Yükləmə-boşaltma vasitələrinin şərti işarəsində ƏO (EO) hansı kranı göstərir? (Çəki: 1)
- (•) bir çalovlu ekskavator
- ( ) qollu kran
- ( ) elektrik bucurğadı
- ( ) qülləli kran
- ( ) elektrokar

BÖLMƏ: 1003

Ad	1003
Suallardan	15
Maksimal faiz	15
Sualları qarışdırmaq	☑
Suallar təqdim etmək	1 %

Sual: Xam pambığın pnevmatik nəqliyyat qurğularında optimal daşınması üçün aparıcı borunun diametri neçə mm olmalıdır? (Çəki: 1)
- ( ) 200
- ( ) 800
- ( ) 600
- ( ) 240
- (•) 250

Sual: Xam pambığın pnevmatik nəqliyyat qurğularında optimal daşınması üçün havanın hərəkət sürəti neçə m/san-yə olmalıdır? (Çəki: 1)
- (•) 28-32
- ( ) 35-4
- ( ) 18-20
- ( ) 10-15
- ( ) 40-55

Sual: Optimal parametrlərdə pnevmatik nəqliyyat qurğusunda 1m boru üçün təziq itkisi neçə Pa olur? (Çəki: 1)
- ( ) 60-71,5
- (•) 32,5-58,5
- ( ) 90,7- 100,4
- ( ) 23- 28,7
- ( ) 100-112

Sual: Optimal parametrlərdə pnevmatik nəqliyyat qurğusunda məhsuldarlıq neçə t\saat olur? (Çəki: 1)
- ( ) 5
- ( ) 6
- (•) 7
- ( ) 10
- ( ) 18

Sual: Pnevmatik nəqliyyat qurğularında istismardan əvvəl ventilyatorun optimal iş rejimini nəyə əsasən təyin etmək lazımdır? (Çəki: 1)
- ( ) təziqə

- ○ çiyidə
- ○ xam pambığa
- ◉ əhatə dairəsinə
- ○ zibilliyə

Sual: Pnevmatik nəqliyyat qurğularında istismardan əvvəl ventilyatorun hansı parametrlərini ölçmək lazımdır? (Çəki: 1)

- ○ sürətini
- ○ şnek yarığını
- ○ valın diametrini
- ○ valın uzunluğu
- ◉ pərlərin dövrlərini

Sual: Pnevmatik nəqliyyat qurğularında istismardan əvvəl hansı parametrləri təyoin etmək lazımdır? (Çəki: 1)

- ◉ havanın hərəkəti sürəti
- ○ havanın nəmliyini
- ○ sexdə atmosfer təziqini
- ○ sexdə nəmliyi
- ○ xam pambığın nəmliyini

Sual: Pnevmatik nəqliyyat qurğularında birləşmələr necə olmalıdırlar? (Çəki: 1)

- ○ bərabər
- ◉ germetik
- ○ dəyişən
- ○ yağlı
- ○ quru

Sual: Pnevmatik nəqliyyat qurğularında borular daxildən necə olmalıdır? (Çəki: 1)

- ◉ hamar
- ○ çıxıntılı
- ○ yağlı
- ○ nəm
- ○ quru

Sual: Pnevmatik nəqliyyat qurğularında ventilyatorun pərləri necə olmalıdır? (Çəki: 1)

- ○ sadə
- ◉ balanslaşdırılmış
- ○ fərqli
- ○ sabit
- ○ dəyişən

Sual: Pnevmatik qurğularda əvvəl hansı qurğu yüksüz işə salınır? (Çəki: 1)

- ○ lent
- ○ daraqlar
- ◉ seperator
- ○ çalov
- ○ şnek

Sual: Pnevmatik nəqliyyat qurğularında seperator və ventilyatorun ətraflı necə olmalıdır? (Çəki: 1)

- ◉ bağlı
- ○ açıq

○ yarım açıq
○ yarım bağlı
○ hərəkətsiz

Sual: Şəkildə göstərilən polispastın ötürmə ədədini təyin edin. (Çəki: 1)

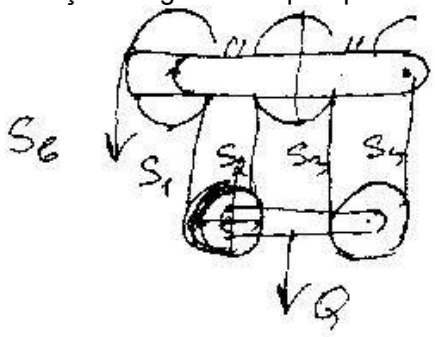

◉ 4
○ 2
○ 3
○ 1
○ 5

Sual: Şəkildə göstərilən polispastın ötürmə ədədini təyin edin. (Çəki: 1)

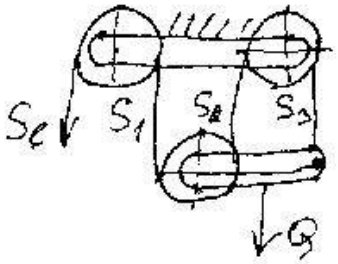

◉ 3
○ 2
○ 1
○ 4
○ 5

Sual: Şəkildə göstərilən polispastın ötürmə ədədini təyin edin. (Çəki: 1)

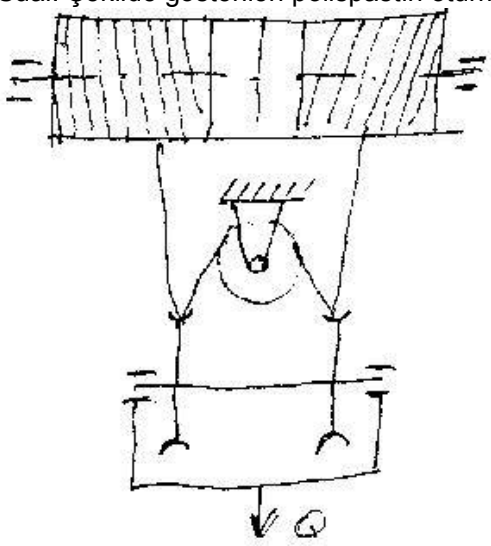

◉ 2

○ 1
○ 3
○ 4
○ 5

BÖLMƏ: 1101

Ad	1101
Suallardan	7
Maksimal faiz	7
Sualları qarışdırmaq	☑
Suallar təqdim etmək	1 %

Sual: Vaxta qənaet etmək məqsədilə xam pambıq sahələrdən yük avtomobilləri ilə tədarük məntəqələrinə əsasən hansı şəkildə daşınır? (Çəki: 1)

◉ açıq
○ təziq altında
○ nəmləndirilmiş halda
○ qurudulmuş halda
○ ventilyatorla

Sual: Bunt meydanlarında xam pambığın qəbulu zaman hansı qidalandırıcılardan istifadə olunur? (Çəki: 1)

○ çalovlu
◉ lentli
○ ventilyator
○ iynəli
○ kolkovalı

Sual: Bunt meydanlarında xam pambığın qəbulu zaman hansı özü hərəkət edən lentli qidalandırıcılardan istifadə olunur? (Çəki: 1)

○ TU-18
○ TNT-20
◉ TXL-18
○ TXK-18
○ TXU- 24

Sual: Bunt meydanlarında xam pambığın qəbulu zaman hansı lentli qidalandırıcılardan istifadə olunur? (Çəki: 1)

○ KU
○ TU
○ TXK
◉ TL
○ SV

Sual: Xam pambığı uzun müddət saxlamaq üçün bağlı anbarlarda hansı elevatordan istifadə edilir? (Çəki: 1)

○ SV-10
○ KE-14
○ E-12
○ EX-24

◉ EX-15

Sual: İl ərzində bağlı anbarlara xam pambıq bir neçə dəfə qəbul olunur, yaxud əksinə anbarlardan xaric edilərsə, onda bu anbarlarda hansı lentli daşıyıcılardan istifadə olunur? (Çəki: 1)

◉ şaquli
○ daxili
○ xarici
○ sadə
○ üfüqi

Sual: Operativ olmayan bağlı anbarlarda hansı qurğulardan istifadə olunur? (Çəki: 1)

○ hərəkətsiz pnevmatik qurğular
◉ hərəkət edən mexanik qurğular
○ hərəkət edən pnevmatik qurğular
○ hərəkətsiz mexanik qurğular
○ avtokranlardan

BÖLMƏ: 1102

Ad	1102
Suallardan	10
Maksimal faiz	10
Sualları qarışdırmaq	☑
Suallar təqdim etmək	1 %

Sual: Traktorda hansı qoşqu qatarından istifadə edilir? (Çəki: 1)

○ RZK- 17
○ PRS-12
◉ PTS-3-7
○ PRV-3
○ SVA-1

Sual: Traktorda hansı qoşqu qatarından istifadə edilir? (Çəki: 1)

○ 18KT
○ 4RT-12
○ 4RTS-134
◉ 2PTSU-793
○ RTU-783

Sual: Hər bir qoşqu qatarının ümumi tutum sahəsi neçə kub metr olur? (Çəki: 1)

○ 16
○ 32
○ 24
○ 18
◉ 12

Sual: Qoşqu qatarı neçə ton xam pambıq tutur? (Çəki: 1)

◉ 22
○ 20
○ 18

○ 62
○ 16

Sual: Qoşqu qatarlar yükü necə qaldırılır? (Çəki: 1)
○ mexanik qurğu ilə
◉ hidravilik qurğu ilə
○ əllə
○ elektrik mühərriki ilə
○ lentlə

Sual: Xam pambığı sahələrdən daşımaq üçün hansı avtomobil qoşqusundan istifadə edilir? (Çəki: 1)
○ AK-122, EF-114
○ AKU-12
◉ AP-766B, TMZ-879
○ SVH -176
○ KNV -176, TKS-876

Sual: TMZ-879 avtomobil qoşqusunun tutumu neçə kub metrdir? (Çəki: 1)
○ 18
○ 12
○ 25
◉ 10
○ 64

Sual: Xam pambığın qoşqulardan boşaldılması zamanı əyilmə bucağı hansı formula ilə təyin edilir? (Çəki: 1)

$\alpha = \rho\vartheta\vartheta + {}_2fs$ ○

$\alpha = \rho s\vartheta$ ○

$\alpha = 18\ f_2gs$ ○

$\alpha = \arcsin f_2gs$ ○

Xam pambığın boşaldılması zamanı eyilme bucağını teyin eden formulda φ herfi neyi gosterir? ◉

Sual: Xam pambığın boşaldılması zamanı əyilmə bucağını təyin edən formulda f1 hərfi nəyi göstərir? (Çəki: 1)
◉ xam pambığın qoşqunun altına sürtünmə əmsalı
○ xam pambığın qoşqunun yanlarına sürtünmə əmsalı
○ xam pambığın tutum sıxlığı
○ qoşqunun yan divarının sahəsi
○ xam pambığın qoşquya təziqi

Sual: Xam pambığın boşaldılması zamanı əyilmə bucağını təyin edən formulda f2 hərfi nəyi göstərir? (Çəki: 1)
○ xam pambığın qoşqunun altına sürtünmə əmsalı
◉ xam pambığın qoşqunun yanlarına sürtünmə əmsalı
○ xam pambığın tutum sıxlığı
○ qoşqunun yan divarının sahəsi
○ xam pambığın qoşquya təziqi

BÖLMƏ: 0303

Ad	0303
Suallardan	22
Maksimal faiz	22
Sualları qarışdırmaq	☑
Suallar təqdim etmək	1 %

Sual: (Çəki: 1)
Kanatın bloka giren ve blokdan çıxan qollarındakı elave qüvveni bu ifadeden hesablamaq olar $W=S_u-S_k=S_k\left(\frac{6}{q}-1\right)=S_k\times Y$ ***Burada Y-neyi gösterir ?***

- ◉ kanatın sərtlik əmsalını
- ○ kanatın sürtünmə əmsalını
- ○ kanatın maillilik bucağını
- ○ kanatın sarınma bucağını
- ○ kanatın dönmə bucağını

Sual: tərpənən və tərpənməz oxlu bloklar daxil olan sistemlərdə sürüşkən yastıqlı bloklar üçün faydalı iş əmsalı nə qədər olur? (Çəki: 1)

- ○ 0,93 ÷ 0,94
- ◉ 0,94 ÷ 0,96
- ○ 0,95 ÷ 0.97
- ○ 0,97 ÷ 0,98
- ○ 0,98 ÷ 1

Sual: Tərpənən və tərpənməz oxlu bloklar daxil olan sistemlərdə, diyircəkli yastıqlı bloklar üçün faydalı iş əmsalı nə qədər olur? (Çəki: 1)

- ○ 0,93 ÷ 0,94
- ◉ 0,94 ÷ 0,96
- ○ 0,95 ÷ 0.97
- ○ 0,97 ÷ 0,98
- ○ 0,98 ÷ 0,99

Sual: Polistpastın faydalı iş əmsalını təyin etmək üçün formulanı yazın. (Çəki: 1)

- $\eta_{pol.}=\eta^{a-1}$ ◉
- $\eta_{pol.}=\eta^{a-2}$ ○
- $\eta_{pol.}=\eta^{a-3}$ ○
- $\eta_{pol.}=\eta^{a-4}$ ○
- $\eta_{pol.}=\eta^{a-5}$ ○

Sual: Barabanın divarlarında hansı gərginliklər yaranır? (Çəki: 1)

- ○ dartılma
- ○ burulma
- ○ əyilmə
- ○ sıxılma
- ◉ sıxılma, burulma və əyilmə

Sual: Barabanlarda ən böyük sıxılma gərginliyi hansı ifadə ilə təyin edilir? (Çəki: 1)

$\sigma_{sıx.}=\frac{g}{t\cdot\delta}\leq(\sigma_{sıx.})$ ◉

$\sigma_{sıx.}=P\cdot\frac{2g^2}{y^2-y_1^2}$ ○

$\sigma_{sıx.}=\frac{g}{t\delta\left(1-\frac{\delta}{g}\right)}$ ○

$\sigma_{sıx.}=P\cdot\frac{3g^2}{y^2-y_1^2}$ ○

$\sigma_{sıx.}=\frac{2g}{t\delta\left(1-\frac{\delta}{g}\right)}$ ○

Sual: Qaynaq zəncirli ulduzcuq üçün hesabi diametri təyin etmək üçün ifadəni yazın? (Çəki: 1)

$D_0=\frac{t}{sin180^0\cdot z}$ ◉

$D_0=\frac{t}{sin90^0\cdot z}$ ○

$D_0=\frac{t}{sin60^0\cdot z}$ ○

$D_0=\frac{t}{sin30^0\cdot z}$ ○

$D_0=\frac{t}{sin15^0\cdot z}$ ○

Sual: Qarmağın yiv olan hissəsi hansı möhkəmlik şərtinə görə yoxlanılır? (Çəki: 1)

◉ dartılma
○ əyilmə
○ burulma
○ kəsilmə
○ əzilmə

Sual: Barabanın diametrinin hesablanmasında e əmsalı qollu kran və orta rejim üçün nə qədər qəbul edilir? (Çəki: 1)

◉ 18
○ 16
○ 14
○ 20
○ 25

Sual: Barabanın diametrinin hesablanmasında e əmsalı qollu kran və ağır rejim üçün nə qədər qəbul edilir? (Çəki: 1)

◉ 20
○ 16
○ 18
○ 14
○ 25

Sual: Barabanın divarının qalınlığını sıxılmaya möhkəmlik şərtindən təyin edin. (Çəki: 1)

$\delta=\frac{0,95\cdot F_{max}}{t_\delta[\sigma]_S}$ ◉

$\delta = \frac{6 \cdot M}{0,1 \sigma_{yp} t_e}$ ○

$\delta = \frac{T}{0,2 \tau_e t_b}$ ○

$\delta = \frac{32T}{t_b \tau_b}$ ○

$\delta = \frac{F_{max}}{t_b D_b [\sigma]_S}$ ○

Sual: Əyilmə və burulmanın birgə təsirdən barabanda yaranan gərginliyi təyin edin. (Çəki: 1)

$\sigma = \frac{\sqrt{M_F^2 + T_b^2}}{W_b}$ ◉

$\sigma = \sqrt{\frac{M_F + T_b}{W_b}}$ ○

$\sigma = \sqrt{\frac{M_F + T_e}{W_e}}$ ○

$\sigma = \frac{\sqrt{M_F^2 - T_b}}{W_b}$ ○

$\sigma = \frac{\sqrt{M_F^2 \cdot T_b^2}}{W_b}$ ○

Sual: ЛК-0 (LK-0) tipli kanatda 0 işarəsi onun hansı diametrdə olduğunu göstərir? (Çəki: 1)

◉ eyni
○ müxtəlif
○ böyük
○ kiçik
○ bərabər və müxtəlif

Sual: Kanar seçildikdən sonra hansı ifadəyə yoxlanılır? (Çəki: 1)

$\sigma = \frac{S_{max}}{A} + \frac{3}{8} E \frac{d_k}{D}$ ◉

$\sigma = \frac{3}{8} E \frac{d_k}{D}$ ○

$\sigma = \frac{S_{max}}{A}$ ○

$\sigma = \frac{4 S_{max}}{\pi d_k^2}$ ○

$\sigma = \frac{Fl}{\pi d_1^3}$ ○

Sual: Kanatın qırılma qüvvəsini təyin edin. (Çəki: 1)

$P = K \cdot S_{max}$ ◉

$P = l \cdot S_{max}$ ○

$P = (l - 1) \cdot S_{max}$ ○

$P = F \cdot A$ ○

$P = A \cdot \sigma$ ○

Sual: Kanatın seçilməsində yüngül rejim üçün möhkəmlik ehtiyat əmsalı nə qədər qəbul edilir? (Çəki: 1)

- ◉ 5
- ○ 4
- ○ 5,5
- ○ 6
- ○ 6,5

Sual: Əgər tələb olunan müəyyən bucaq altında işləyirsə tələb olunan güc hansı formula ilə təyin edilər? (Çəki: 1)

- ◉ $N_n = \frac{QkL}{367\mu}(W + Sin\beta)$
- ○ $N = 367QkL(W + Sin\beta)$
- ○ $N = Q_k L(W + \sin\beta)$
- ○ $N = 367Q(W + Sin\beta)$
- ○ $N = 367Q\eta W$

Sual: Əgər yivli konveyer ayrıcı kimi işləyirsə,onda onun işinə tələb olunan guc,adi konveyerlərə tələb olunan gücdən necə fərqlənir? (Çəki: 1)

- ○ Çox olar
- ◉ Az olar
- ○ Fərqlənməz
- ○ Eyni olmaz
- ○ Dəyişməz

Sual: Ayrıcı yivli konveyerin gücü hnsı formula ilə təyin edilir? (Çəki: 1)

- ◉ $N_{kp} = \frac{W}{367\mu}\sum QkL$
- ○ $N_{kp} = 367\mu$
- ○ $N_{kp} = QkLW$
- ○ $N_{kp} = QkLW\mu$
- ○ $N_{kp} = Qk\mu$

Sual: Xam pambıq üçün müqavimət əmsalı neçədir? (Çəki: 1)

- ◉ w=5
- ○ w=3
- ○ w=18
- ○ w=20
- ○ w=27

Sual: Mühərrikin gücünü təyin edən formulada w hərfi nəyi göstərir? (Çəki: 1)

- ○ Vintin addımı
- ○ Vintin addımı
- ○ Konveyerin uzunluğu
- ○ Vintin fırlanma tezliyi
- ◉ Ümumi müqavimət əmsalı

Sual: Yivin fırlanma tezliyinin məhsuldarlıqla əlaqəsi hansı formula ilə yoxlanılır? (Çəki: 1)

$n=420Q_k L_1$ ○

$n=Q_k L_1 W$ ○

$n\frac{Qk}{47D^2-5n\varphi\rho}$ ◉

$n=Q\varphi\rho n$ ○

$n=47D^2(Q_k-n\varphi\rho)$ ○

BÖLMƏ: 1103

Ad	1103
Suallardan	14
Maksimal faiz	14
Sualları qarışdırmaq	☑
Suallar təqdim etmək	1 %

Sual: Xam pambığın boşaldılması zamanı əyilmə bucağını təyin edən formulda q hərfi nəyi göstərir? (Çəki: 1)

○ xam pambığın qoşqunun altına sürtünmə əmsalı
○ xam pambığın qoşqunun yanlarına sürtünmə əmsalı
○ xam pambığın tutum sıxlığı
○ qoşqunun yan divarının sahəsi
◉ xam pambığın qoşqunun yan divarına təziqi

Sual: Xam pambığın boşaldılması zamanı əyilmə bucağını təyin edən formulda v hərfi nəyi göstərir? (Çəki: 1)

○ xam pambığın qoşqunun altına sürtünmə əmsalı
○ xam pambığın qoşqunun yanlarına sürtünmə əmsalı
○ xam pambığın tutum sıxlığı
◉ xam pambığın doldurduğu sahə
○ xam pambığın qoşquya təziqi

Sual: (Çəki: 1)

Xam pambığın boşaldılması zamanı eyilme bucağını teyin eden formulda φ herfi neyi gosterir?

○ xam pambığın qoşqunun altına sürtünmə əmsalı
○ xam pambığın qoşqunun yanlarına sürtünmə əmsalı
◉ xam pambığın tutum sıxlığı
○ qoşqunun yan divarının sahəsi
○ xam pambığın qoşquya təziqi

Sual: Xam pambığın boşaldılması zamanı əyilmə bucağını təyin edən formulda S hərfi nəyi göstərir? (Çəki: 1)

◉ qoşqunun yan divarının sahəsi
○ qoşqunun altına təziq
○ qoşqunun altının sürtünmə əmsalı]
○ qoşqunun yanına təziq
○ xam pambığın qoşquya nəzərən sürtünmə bucağı

Sual: (Çəki: 1)
Xam pambığın boşaldılması zamanı eyilme bucağını teyin eden formulda φ herfi neyi gosterir?
- ○ qoşqunun yan divarının sahəsi
- ○ qoşqunun altına təziq
- ○ qoşqunun altının sürtünmə əmsalı
- ○ qoşqunun yanına təziq
- ◉ xam pambığın qoşqunun alt hissəsinə nəzərən sürtünmə bucağı

Sual: TMZ-879 –nin yük qaldırma qabiliyyəti neçə tondur? (Çəki: 1)
- ○ 3
- ○ 5
- ◉ 6
- ○ 14
- ○ 9

Sual: PTS3-766 qoşqusunun yük qaldırma qabilyyəti neçə tondur? (Çəki: 1)
- ○ 9
- ○ 5
- ○ 8
- ◉ 3
- ○ 10

Sual: PTS3 qoşqunun uzunluğu neçə metrdir? (Çəki: 1)
- ○ 11
- ○ 2
- ○ 6
- ○ 4
- ◉ 3.7

Sual: 2PTSA-793 qoşqusunun yük qaldırma qabliyyəti neçə tondur? (Çəki: 1)
- ◉ 4
- ○ 3
- ○ 8
- ○ 9
- ○ 12

Sual: 2PTSA-793 qurğusunda artırılmış boltla yük yerinin tutumu neçə kub metrdir? (Çəki: 1)
- ○ 15
- ◉ 12,7
- ○ 14,2
- ○ 16
- ○ 28

Sual: 2PTSA-793 qoşqusunun uzunluğu neçə metrdir? (Çəki: 1)
- ○ 4
- ○ 5
- ◉ 3,8
- ○ 6
- ○ 2,5

Sual: Daşınan yükün bir tonuna nəzərən altlıqların istismar xərclərini müəyyən edin: (Çəki: 1)

$X_{is} = \frac{(X_k - X_i)t_{ad}}{G_i \cdot t_s \cdot q_f}$ ◉

$X_{is} = \frac{(X_k - X_i)}{100}$ ○

$X_{is} = \frac{(X_k - X_i)}{200}$ ○

$X_{is} = \frac{(X_k - X_i)}{300}$ ○

$X_{is} = \frac{(X_k - X_i)}{500}$ ○

Sual: İl ərzində hazırlanmış Qil həcmində yükü daşımaq üçün yükləmə-boşaltma vasitələrinin sayını təyin edin. (Çəki: 1)

$M_x = \frac{Q_{il}}{W_i \cdot F_d}$ ○

$M_x = \frac{Q_{il} \cdot \xi}{W_i \cdot F_d}$ ◉

$M_x = \frac{Q_{il} \cdot \xi}{365 \cdot F_d}$ ○

$M_x = \frac{Q_{il} \cdot \xi}{F_d}$ ○

$M_x = \frac{Q_{il} \cdot T_{il}}{W_i}$ ○

Sual: Taxıl yığan kombaynların cəm məhsuldarlığını müəyyən edin: (Çəki: 1)

$\sum W_k = 0.01 \cdot b_i \cdot q_m \cdot v_i \cdot n$ ◉

$\sum W_k = 0.01 \cdot b_i \cdot q_m$ ○

$\sum W_k = 0.01 \cdot b_i \cdot q_m \cdot n$ ○

$\sum W_k = 0.01 \cdot b_i \cdot v_i \cdot n$ ○

$\sum W_k = b_i \cdot q_m \cdot v_i \cdot n$ ○

BÖLMƏ: 1201

Ad	1201
Suallardan	9
Maksimal faiz	9
Sualları qarışdırmaq	☑
Suallar təqdim etmək	1 %

Sual: İl ərzində bir neçə dəfə anbarlara xam pambıq doldurulub boşaldılarsa, onda belə anbarlar necə adlandırılır? (Çəki: 1)

◉ operativ
○ sadə
○ qarışıq
○ təcili
○ qoşqulu

Sual: Operativ anbarlara hansı qurğular quraşdırılır? (Çəki: 1)
- ○ cin maşınları
- ◉ qəbul edici qurğu
- ○ linter maşınları
- ○ pres
- ○ qarışıq ayıran

Sual: Operativ anbarlara hansı qurğular quraşdırılır? (Çəki: 1)
- ○ cin maşınları
- ◉ dəmir çalovlu zəncir
- ○ linter maşınları
- ○ pres
- ○ qarışıq ayıran

Sual: Operativ anbarlara hansı qurğular quraşdırılır? (Çəki: 1)
- ○ cin maşınları
- ◉ pambıq elevatoru
- ○ linter maşınları
- ○ pres
- ○ qarışıq ayıran

Sual: Operativ anbarlara hansı tipli stasionar lentli daşıyıcı quraşdırılır? (Çəki: 1)
- ○ TXL
- ○ U 12
- ○ 2SB
- ○ XLL
- ◉ 2TXC

Sual: 2TXC tipli stasionar lentli daşıyıcının lentinin eni neçə mm olur? (Çəki: 1)
- ◉ 800
- ○ 400
- ○ 50
- ○ 750
- ○ 110

Sual: Lentli daşıyıcının özülünün uclarında hansıbarabanlar quraşdırılır? (Çəki: 1)
- ○ dişli
- ◉ aparıcı və dartıcı
- ○ didici
- ○ darayıcı və paralelləşdirici
- ○ əyrici

Sual: Pambıq elevatorunun qəbul edici qurğusu anbarın hansı tərəfidə yerləşdirilir? (Çəki: 1)
- ○ ortasında
- ○ üstndə
- ◉ kənarında
- ○ damın altında
- ○ damın üstündə

Sual: Lentli daşıyıcı anbarlar harda yerləşdirilir? (Çəki: 1)

- ○ ortada
- ○ damın üstündə
- ◉ damın altında
- ○ kənarda
- ○ döşəmədə

BÖLMƏ: 1202

Ad	1202
Suallardan	7
Maksimal faiz	7
Sualları qarışdırmaq	☑
Suallar təqdim etmək	1 %

Sual: Lentli daşıyıcıda lenti habsı qurğular hərəkətə gətirir? (Çəki: 1)

- ○ dişli çarxlar
- ○ sepli ötürücülər
- ○ ötürücülər
- ○ dişlər
- ◉ barabanlar

Sual: Reduktor hansı barabanı işə salır? (Çəki: 1)

- ◉ aparıcı
- ○ dartıcı
- ○ aparılan
- ○ sıxıcı
- ○ didici

Sual: Sipərli tullayıcının məhsuldarlığı hansı amillərdən aslıdır? (Çəki: 1)

- ○ xam pambığın nəmliyindən
- ◉ quraşdırılma bucağından və hündürlüyünən
- ○ xam pambığın zibilliyinən
- ○ xam pambığın növündən
- ○ ətraf mühitin nəmliyindən

Sual: Sipərli tullayıcının optimal quraşdırılma bucağı neçə dərəcə olmalıdır? (Çəki: 1)

- ○ 65-70
- ○ 40-50
- ◉ 30-35
- ○ 10-20
- ○ 90-100

Sual: Sipərli tullayıcının lentinin eni neçə mm olur? (Çəki: 1)

- ○ 300
- ○ 450
- ○ 600
- ◉ 500
- ○ 250

Sual: Sipərli tullayıcının lentinin sürəti neçə m/san olur? (Çəki: 1)

- ○ 80-100
- ○ 50-60
- ○ 20-30
- ○ 10-25
- ◉ 2,2-8

Sual: Mexanikləşdirilmiş anbarlara 1 saatda neçə tona qədər xam pambıq yükləmək mümkündür? (Çəki: 1)

- ◉ 20
- ○ 23
- ○ 32
- ○ 40
- ○ 38

BÖLMƏ: 1203

Ad	1203
Suallardan	13
Maksimal faiz	13
Sualları qarışdırmaq	☑
Suallar təqdim etmək	1 %

Sual: Mexanikləşdirilməmiş bağlı anbarlarda xam pambığın boşaldılması hansı daşıyıcılar vasitəsilə aparılır? (Çəki: 1)

- ○ TU və TS
- ◉ TXL-18 və TL
- ○ TSV -24 və TU
- ○ STP
- ○ BTL

Sual: Xam pambığın buntlardan pnevmatik nəqliyyat qurğularına ötürülməsi üçün qurğudan istifadə edilir? (Çəki: 1)

- ○ TXL-18 transpartyoru
- ○ TL transpartyoru
- ◉ RBA sökən
- ○ STP qurğusu
- ○ BTL qurğusu

Sual: Buntların tamamilə sökülməsi üçün neçə gediş edir? (Çəki: 1)

- ○ 5
- ○ 3
- ○ 8
- ◉ 2
- ○ 6

Sual: RBA bunt sökəni kimlər idarə edir? (Çəki: 1)

- ○ operator
- ○ mexanik və çilingər
- ○ çilingər
- ○ tornaçı
- ◉ operator və köməkçi

Sual: RBA sökücünün məhsuldarlığı hansı formula ilə təyin edilir? (Çəki: 1)

Q=3600Hh $V\rho_{x-c} \cdot r$ ◉

Q=360H$\vartheta\rho_{x-c}$ ○

Q=H$\vartheta\rho_{\square}$r ○

○ Q= 8,2 HVpr

Q= $\frac{HV}{P}$ rx ○

Sual: RBA sökücünün məhsuldarlığını təyin edən formulda H-hərfi nəyi göstərir. (Çəki: 1)

○ hündürlüyü
◉ frezin dişinin dərinliyinin qiyməti
○ dişli frezin boşaltma əmsalı
○ xam pambığın sıxlığı
○ dişli frezin işlədiyi qatın eni

Sual: RBA sökücünün məhsuldarlığını təyin edən formulda h-hərfi nəyi göstərir? (Çəki: 1)

○ hündürlüyü
○ frezin dişinin dərinliyinin qiyməti
○ dişli frezin boşaltma əmsalı
○ xam pambığın sıxlığı
◉ dişli frezin işlədiyi qatın eni

Sual: RBA sökücünün məhsuldarlığını təyin edən formulda V-hərfi nəyi göstərir? (Çəki: 1)

○ hündürlüyü
○ frezin dişinin dərinliyinin qiyməti
○ dişli frezin boşaltma əmsalı
◉ üfüqi istiqamətdə dişli frezin sürəti
○ dişli frezin işlədiyi qatın eni

Sual: RBA sökücünün məhsuldarlığını təyin edən formulda r-hərfi nəyi göstərir? (Çəki: 1)

○ hündürlüyü
○ frezin dişinin dərinliyinin qiyməti
◉ dişli frezin boşaltma əmsalı
○ xam pambığın sıxlığı
○ dişli frezin işlədiyi qatın eni

Sual: Xam pambıqla frezin toxunma bucağı 90 az olduqda frezin pambığa daxil olma qiyməti hansı formula ilə təyin edilir? (Çəki: 1)

H=R(S – $\cos^{\alpha}$) ○

H= R(1- $\cos^{\alpha}$) ◉

○ H= Rvh

H= 2R $\cos^{\alpha}$ ○

H=2R V $\cos^{\alpha}$ ○

Sual: RBA sökücünün oxunun maksimum qalxma hündürlüyü neçə metrdir? (Çəki: 1)
- ○ 5
- ◉ 8
- ○ 7
- ○ 16
- ○ 6

Sual: RBA sökücündə olan dişli frezin diametri neçə millimetrdir? (Çəki: 1)
- ○ 1600
- ○ 600
- ○ 300
- ◉ 1100
- ○ 1500

Sual: RBA sökücüsündə boşaldıcı daşıyıcının lentinin eni neçə metrdir? (Çəki: 1)
- ○ 130
- ○ 470
- ○ 320
- ◉ 500
- ○ 340

BÖLMƏ: 1301

Ad	1301
Suallardan	6
Maksimal faiz	6
Sualları qarışdırmaq	☑
Suallar təqdim etmək	1 %

Sual: Çiyid bağlı yaxud açıq bunt meydanan esteqadalara hansı elevatorun vasitəsilə verilir? (Çəki: 1)
- ◉ ES-14
- ○ ES -15
- ○ SV -10
- ○ BA-10
- ○ TL

Sual: Çiyid bağlı yaxud açıq anbarlara daxil olmazdan əvvəl hası markalı avtomat tərəzilərdə çəkilir? (Çəki: 1)
- ○ DMV
- ◉ DMX-15
- ○ SVU -14
- ○ VLİ
- ○ SMD-15

Sual: Avtomobil və dəmir yolu nəqliyyatı ilə çiyidin daşınması üçün nələr yaradılır? (Çəki: 1)
- ○ daşıyıcılar
- ○ lentli qidalandırıcılar
- ◉ mexanikləşdirilmiş bunkerlər
- ○ örtüklər

○ yarıqlar

Sual: Mexanikləşdirilmiş anbarlarda neçə əsas bunker bölmələr olur? (Çəki: 1)
○ 8
○ 4
○ 5
◉ 3
○ 12

Sual: Mexanikləşdirilmiş maili bunker anbarların hər biri neçə ton çiyid tutur? (Çəki: 1)
○ 17
○ 60
○ 100
○ 450
◉ 200

Sual: Bunkerlərin üzərində lüklar nə üçün qoyulur? (Çəki: 1)
◉ proflaktika üçün
○ havanın daxil olması üçün
○ havanın çıxması üçün
○ çiyidin çeşidlənməsi üçün
○ çiyidin nəql edilməsi üçün

BÖLMƏ: 1302

Ad	1302
Suallardan	9
Maksimal faiz	9
Sualları qarışdırmaq	☑
Suallar təqdim etmək	1 %

Sual: Linter sexində çiyidin bunkerlərə boşaldılması üçün hansı qurğudan istifadə edilir? (Çəki: 1)
○ lent
◉ bölüşdürücü şnek
○ dişli çarx
○ transportyor
○ lentli qidalandırıcı

Sual: Bölüşdürücü şnek 1 saatda maksimum neçə ton çiyidi bunkerlərə boşalda bilir? (Çəki: 1)
○ 15
○ 16
◉ 8
○ 9
○ 10

Sual: Buntlarda qidalandırıcı qurğuların altında hansı maili lentli transportyor yerləşdirilir? (Çəki: 1)
○ TXL
○ STB -12
○ TL
◉ 2TXS

○ EX-15

Sual: Çiyidin bunkerlərə verilməsində qidalandırıcının məhsuldarlığı hansı formula ilə təyin edilir? (Çəki: 1)

○ $Q=214\pi D^2\rho_c$

○ $Q=\pi D^2\rho_c$ ni

○ $Q=316\pi D^2\rho_c$

○ $Q=60n\pi D^2\rho_c$ a

◉ $Q=60\pi D^2 nia\rho_c$

Sual: Qidalandırıcının məhsuldarlığını təyin edən formulada D-hərfi nəyi göstərir? (Çəki: 1)

◉ barabanın pərinin diametrini
○ barabanın pərləri arası məsafəni
○ barabanın pərinin uzunluğunu
○ barabanın fırlanma tezliyini
○ barabanlar arasında çiyidin sıxlığını

Sual: Qidalandırıcının məhsuldarlığını təyin edən formulada i-hərfi nəyi göstərir? (Çəki: 1)

○ barabanın pərinin diametrini
○ barabanın pərləri arası məsafəni
◉ barabanın pərinin uzunluğunu
○ barabanın fırlanma tezliyini
○ barabanlar arasında çiyidin sıxlığını

Sual: Qidalandırıcının məhsuldarlığını təyin edən formulada d-hərfi nəyi göstərir? (Çəki: 1)

○ barabanın pərinin diametrini
◉ barabanın pərləri arası məsafəni
○ barabanın pərinin uzunluğunu
○ barabanın fırlanma tezliyini
○ barabanlar arasında çiyidin sıxlığını

Sual: Barabanın pərləri arası məsafə hansı formula ilə təyin olunur? (Çəki: 1)

○ a=2Ph
○ a=2PVh
○ a=2SVP

◉ $a= 2h+ \sigma$

○ $a= Sh+ \sigma$

Sual: Qidalandırıcının məhsuldarlığını təyin edən formulada n-hərfi nəyi göstərir? (Çəki: 1)

○ barabanın pərinin diametrini
○ barabanın pərləri arası məsafəni
○ barabanın pərinin uzunluğunu
◉ barabanın fırlanma tezliyini
○ barabanlar arasında çiyidin sıxlığını

BÖLMƏ: 1303

Ad 1303

Suallardan	12
Maksimal faiz	12
Sualları qarışdırmaq	☑
Suallar təqdim etmək	1 %

Sual: (Çəki: 1)

Qidalandırıcının mehsuldarlığını teyin eden formulada ρ_c-herfi neyi gosterir?

- ○ barabanın pərinin diametrini
- ○ barabanın pərləri arası məsafəni
- ○ barabanın pərinin uzunluğunu
- ○ barabanın fırlanma tezliyini
- ◉ barabanlar arasında çiyidin sıxlığını

Sual: n=20 dövr/dəq olduqda qidalandırıcının məhsuldarlığı neçə ton/saata qədər olur? (Çəki: 1)

- ○ 70
- ◉ 50
- ○ 72
- ○ 105
- ○ 95

Sual: VZ-5 toxum yükləyənin boşaltma hissəsindəki kranşteynlərə hansı qurğu quraşdırılır? (Çəki: 1)

- ○ bərkidici
- ○ ayırıcı
- ○ didici
- ◉ tullayıcı
- ○ sorucu

Sual: Aşağıdakılardan hansı VZ-5 toxum yükləyənin əsas hissələridir? (Çəki: 1)

- ○ təkərlər
- ○ bunkerlər
- ○ qapaqlar
- ○ sorucu
- ◉ lentli tullayıcı- ötürücü

Sual: Aşağıdakılardan hansı VZ-8 toxum yükləyənin əsas hissələridir? (Çəki: 1)

- ◉ lentli konveyer
- ○ didici
- ○ əyrici
- ○ sorucu
- ○ yapışdırıcı

Sual: Tullayıcılarda olan sıxıcılar nə üçün nəzərdə tutulmuşdur? (Çəki: 1)

- ○ işçi hissəni qaldırmaq üçün
- ◉ işçi hissəni aşağıya sıxmaq üçün
- ○ hərəkəti nizamlamaq üçün
- ○ hərəkəti sürətləndirmək üçün
- ○ çiyidi yaymaq üçün

Sual: VZ-5 toxum yükləyən konveyerin raması, ona birləşdirilmiş hissələrlə birlikdə neçə dərəcə bucaq altında hər tərəfə dönür? (Çəki: 1)

- ○ 125
- ○ 90
- ◉ 110
- ○ 180
- ○ 360

Sual: VZ-5 toxum yükləyən konveyerin ramasının dönməsi hansı qurğu ilə aparılır? (Çəki: 1)

- ○ sepli ötürücü
- ○ dişli ötürücü
- ○ çarx
- ◉ tros libyodka
- ○ lentli transportyor

Sual: Tullayıcının lentinin eni neçə millimetr olur? (Çəki: 1)

- ○ 560
- ○ 470
- ○ 250
- ○ 300
- ◉ 500

Sual: Tullayıcının lentinin sürəti neçə metr/san olur? (Çəki: 1)

- ◉ 4,5
- ○ 8
- ○ 5
- ○ 16
- ○ 24

Sual: Tullayıcının lentinin sürəti 4,5m/san olduqda məhsuldarlıq neçə t/saat olur? (Çəki: 1)

- ○ 70
- ◉ 50
- ○ 120
- ○ 110
- ○ 215

Sual: Tullayıcıya neçə kilovat güc tələb olunur? (Çəki: 1)

- ○ 17-20
- ○ 7-10
- ◉ 6-6,5
- ○ 10 -15
- ○ 25-27

BÖLMƏ: 1401

Ad	1401
Suallardan	14
Maksimal faiz	14
Sualları qarışdırmaq	☑
Suallar təqdim etmək	1 %

Sual: Kip halına salınmış mahlıc,lint və lifli tullantılar hansı qurğunun vasitısilə pres kamerasından qaldırılır? (Çəki: 1)
- ◉ elektrik talı
- ○ lentli daşıyıcı
- ○ qidalandırıcı
- ○ elektrik mühərriki
- ○ lentli konveyer

Sual: Transportyor hansı əsas hissələrdən ibarət olur? (Çəki: 1)
- ○ çarx
- ◉ lent
- ○ çalov
- ○ şnek
- ○ qanov

Sual: Transportyor hansı əsas hissələrdən ibarət olur? (Çəki: 1)
- ○ dişli çarx
- ○ lent
- ◉ aparıcı baraban
- ○ şnek
- ○ qanov

Sual: Sex daxili telferlərin vasitəsilə kiplər hara verilir? (Çəki: 1)
- ○ linter sexinə
- ○ anbarlara
- ○ buntlara
- ◉ çəki meydançasına
- ○ təmizləyici sexə

Sual: Stasionar lentli konveyer hansı ГОСТ-un tələbinə uyğun quraşdırılır? (Çəki: 1)
- ○ 1591-64
- ○ 1621-74
- ○ 1748-88
- ○ 1724-55
- ◉ 1596-53

Sual: Stasionar lentli konveyerlərdə lentin hərəkət sürəti neçə m/san-dən az olmamlıdır? (Çəki: 1)
- ◉ 0,1
- ○ 0,4
- ○ 4,5
- ○ 5
- ○ 1,2

Sual: Kiplərin daşınmasında hansı lentli konveyerdən istifadə edilir? (Çəki: 1)
- ○ KVS-100
- ◉ KLS-650
- ○ SVH-400
- ○ TL
- ○ TU-200

Sual: KLS-650 lentli konveyerində dayaq rolikinə taxılan lentin eni neçə mm olmalıdır? (Çəki: 1)
- ○ 400
- ○ 600
- ◉ 650
- ○ 320
- ○ 800

Sual: Lentli konveyerin ötürücü qurğusunun hərəkətə gətirilməsi üçün lentin sonuna neçə baraban yerləşdirilir? (Çəki: 1)
- ○ 5
- ○ 4
- ○ 7
- ◉ 2
- ○ 6

Sual: Konveyerin ötürücü qurğusunu hərəkətə gətirən baraban necə adlandırılır? (Çəki: 1)
- ○ didici
- ○ itələyici
- ○ sorucu
- ○ yükləyici
- ◉ aparıcı

Sual: 0,1-0,2 m/san lentin hərəkət sürətində konveyerin məhsuldarlığı neçə t/saata qədər olur? (Çəki: 1)
- ◉ 20
- ○ 30
- ○ 47
- ○ 50
- ○ 117

Sual: Çatılı kranın maksimum uçuş məsafəsi neçə metrdir? (Çəki: 1)
- ◉ 32
- ○ 15
- ○ 20
- ○ 28
- ○ 10

Sual: Çatılı kranların maksimum yükqaldırma qabiliyyəti neçə tondur? (Çəki: 1)
- ◉ 32
- ○ 35
- ○ 38
- ○ 40
- ○ 42

Sual: Fermaları yuxarıda qurulmuş relslər üzərində yox, çatıların sonunda qurulmuş təkərlər vasitəsilə yerdə düzəldilmiş relsli yollar üzərində hərəkət edən kran hansı kranı göstərir? (Çəki: 1)
- ◉ çatılı kran
- ○ qülləli kran
- ○ inşaat kranı
- ○ körpülü kran
- ○ avtomobil kranı

BÖLMƏ: 1402

Ad	1402
Suallardan	10
Maksimal faiz	10
Sualları qarışdırmaq	☑
Suallar təqdim etmək	1 %

Sual: Avtomobillərə yaxud yük qatarlarına kiplər hansı markalı maşınlar ilə aparılır? (Çəki: 1)
- ○ USV
- ◉ UPM-6M
- ○ DSV
- ○ SXL-17
- ○ TVK-183

Sual: Uzaq məsafələrə mahlıc kiplərinin daşınmasında hansı vasitələrdən istifadə olunur? (Çəki: 1)
- ○ telferlərlə
- ○ avtomobillərlə
- ◉ yük qatarları ilə
- ○ tallarla
- ○ lentli daşıyıcılarla

Sual: Yük qatarlarının texnik yük daşıma qabiliyyəti hansı formula ilə təyin edilir? (Çəki: 1)

$\mu = 2Qm$ ○

$\mu = QRV$ ○

$\mu = \frac{Q}{Qp}$ ◉

$\mu = \frac{18s}{Q}$ ○

$\mu = QSV$ ○

Sual: Yük daşıma qabiliyyətini təyin formulada Q-hərfi nəyi göstərir? (Çəki: 1)
- ○ qatarın yük götürmə qabiliyyəti
- ○ qatarın sahəsi
- ○ kiplərin ümumi uzunluğu
- ○ kiplərin ölçüləri
- ◉ kiplərin çəkisi

Sual: Yük daşıma qabiliyyətini təyin edən formulada Qp –hərfi nəyi göstərir? (Çəki: 1)
- ◉ qatarın yük götürmə qabiliyyəti
- ○ kiplərin çəkisi
- ○ kiplərin ölçüləri
- ○ qatarın sahəsi
- ○ kiplərin uzunluğu

Sual: Bir yerin çəkisi neçə tondan artıq olan yükləri daşımaq üçün xüsusi hərəkət tərkibi tələb olunur? (Çəki: 1)
- ◉ 5
- ○ 7

○ 9
○ 10
○ 11

Sual: Ədədi və taralı yüklər üçün nəqliyyat maşının məhsuldarlığını təyin edin. (Çəki: 1)

$Q = \frac{3,6 \cdot m \cdot \vartheta}{a}$ ◉
$Q = \frac{mZ}{1000}$ ○
$Q = 3600 \cdot m \cdot \vartheta$ ○
$Q = \frac{3600 \cdot \vartheta}{a}$ ○
$Q = \frac{3,6 \cdot \vartheta \cdot q}{a}$ ○

Sual: Çatılı kranın maksimum yükqaldırma hündürlüyü neçə metrdir? (Çəki: 1)

◉ 10
○ 8
○ 7,1
○ 12
○ 14

Sual: Daşınan yükün vahid metr uzunluğunun kütləsi q – kq/m-lə verilərsə, nəqliyyat maşının məhsuldarlığını təyin edin (t/saat). (Çəki: 1)

$Q = 3,6 \cdot q \cdot \vartheta$ ◉
$Q = 3600 \cdot q \cdot \vartheta$ ○
$Q = 3600F \cdot \vartheta \cdot \rho$ ○
$Q = 3600 \cdot F \cdot \vartheta$ ○
$Q = 3,6 \cdot K_s \cdot \vartheta \cdot \rho$ ○

Sual: Yükün başlanğıc sürəti sıfır olarsa, yükün lentin üzərinə düşmə sürətini təyin edək. (Çəki: 1)

$\vartheta_1 = \sqrt{2gH - 2glf}$ ◉
$\vartheta_1 = \sqrt{2gH}$ ○
$\vartheta_1 = 2gH$ ○
$\vartheta_1 = \sqrt{2gH + 2glf}$ ○
$\vartheta_1 = \sqrt{2glf}$ ○

BÖLMƏ: 0101

Ad	0101
Suallardan	11
Maksimal faiz	11
Sualları qarışdırmaq	☑
Suallar təqdim etmək	1 %

Sual: Bunlardan hansı elektrik mühərrikinin güc vahididir? (Çəki: 1)

○ kq

- ○ kqm
- ◉ kvt
- ○ m
- ○ ton

Sual: Bunlardan hansı ilkin mexanikləşdirmə vasitələrinə aiddir? (Çəki: 1)

- ○ domkratlar
- ○ preslər
- ◉ mail müstəvilər
- ○ çıxarıcılar
- ○ çalovlar

Sual: İş prinsipinə görə yükqaldırıcı nəqletdirici maşınlar konstruktiv olaraq neçə yerə bölünür? (Çəki: 1)

- ◉ 2
- ○ 3
- ○ 4
- ○ 5
- ○ 6

Sual: Yükün yerdəyişməsinin xarakterindən asılı olaraq bütün fasiləli işləyən maşınları şərti olaraq neçə əsas qrupa ayırmaq olar? (Çəki: 1)

- ○ 2
- ◉ 3
- ○ 4
- ○ 5
- ○ 6

Sual: PV (ПВ)-15% - hansı iş rejimini göstərir? (Çəki: 1)

- ◉ Yüngül
- ○ Əl intiqallı
- ○ Orta
- ○ Ağır
- ○ Çox ağır

Sual: PV (ПВ)-25 - hansı iş rejimini göstərir? (Çəki: 1)

- ◉ Orta
- ○ Yüngül
- ○ Əl intiqallı
- ○ Çox ağır
- ○ Ağır

Sual: PV (ПВ)-40 - hansı iş rejimini göstərir? (Çəki: 1)

- ◉ Ağır
- ○ Çox ağır
- ○ Orta
- ○ Əl intiqallı
- ○ Yüngül

Sual: Uzunluğun 4.5m –dən artıq olan yüklər nə cür adlanır? (Çəki: 1)

- ◉ uzun ölçülü
- ○ qabaritli

○ qabaritsiz
○ normal
○ ölçüsüz

Sual: Orta tədarük məntəqələri neçə min tona qədər xam pambığı qəbul edə bilir? (Çəki: 1)
◉ 10
○ 54
○ 18
○ 25
○ 32

Sual: ГОСТ-10202-62 –yə görə xam pambıq neçə növə bölünür? (Çəki: 1)
○ 3
◉ 4
○ 2
○ 8
○ 6

Sual: Zibilliyə görə xam pambığın hesabi kütləsi hansı formula ilə təyin edilir? (Çəki: 1)
$G_n=G_f\ KL$ ○
$G_n=100-Z_f$ ○
$G_h = G_f\left(\frac{100-Z_f}{100-Z_h}\right)$ ◉
$G_h=G_fKTM$ ○
$G_h=G_fKVS$ ○

BÖLMƏ: 0102

Ad	0102
Suallardan	8
Maksimal faiz	8
Sualları qarışdırmaq	☑
Suallar təqdim etmək	1 %

Sual: Vintli domkratların yükqaldırma qabiliyyəti nə qədərdir? (Çəki: 1)
○ 5-40KN
○ 6-50KN
○ 8-100KN
◉ 10-200KN
○ 12-250KN

Sual: Vintli domkratların faydalı iş əmsalı nə qədərdir? (Çəki: 1)
○ 0,1-0,2
○ 0,2-0,3
◉ 0,3-0,4
○ 0,4-0,5
○ 0,5-0,6

Sual: Ədədi yüklər nəql etdirilmək üçün prosesə necə daxil olur? (Çəki: 1)
- (•) bir-bir
- ( ) iki-iki
- ( ) üç-üç
- ( ) dörd-dörd
- ( ) beş-beş

Sual: Hansı çəkiyə malik olan yüklər ağır çəkili yük hesab olunur? (Çəki: 1)
- ( ) 10 kq və ondan çox
- ( ) 15 kq və ondan çox
- ( ) 20 kq və ondan çox
- (•) 25 kq və ondan çox
- ( ) 30 kq və ondan çox

Sual: Hidravlik domkratların faydalı iş əmsalı nə qədərdir? (Çəki: 1)
- ( ) 0,3-0,4
- ( ) 0,4-0,5
- ( ) 0,5-0,6
- ( ) 0,6-0,7
- (•) 0,7-0,8

Sual: Hidravlik domkratların yükqaldırma fəaliyyəti nə qədərdir? (Çəki: 1)
- ( ) 3000KN
- ( ) 4000KN
- (•) 5000KN
- ( ) 6000KN
- ( ) 7000KN

Sual: (Çəki: 1)
Zibilliye gore xam pambığın hesabi kütlesi hansı formulasında G_f herfi neyi gosterir?
- ( ) xam pambığın faktiki nəmliyi
- ( ) zibilliyin bazis norması
- ( ) xam pambığın faktiki zibilliyi
- (•) xam pambığın faktiki kütləsi
- ( ) nəmliyin bazis norması

Sual: Pambıq lifinin qirilma qüvvəsi I növ üçün neçə olmalıdır? (Çəki: 1)
- (•) 4,4 –dən çox
- ( ) 3,2 –qədər
- ( ) 1,0
- ( ) 1,5
- ( ) 2,7

BÖLMƏ: 1403

Ad	1403
Suallardan	7
Maksimal faiz	7
Sualları qarışdırmaq	☑
Suallar təqdim etmək	1 %

Sual: Yük qatarına yüklənən kiplərin ümumi çəkisi hansı formula ilə təyin edilir? A) Q=nvck (Çəki: 1)

- ○ Q=nvck
- ◉ $Q=\frac{nC_k}{1000}=\frac{nV_k\rho}{1000}$
- ○ $Q=\rho Vh$
- ○ Q=1000 Vh
- ○ Q=100nCK

Sual: Qatarlara yüklənən kiplərin ümumi çəkisini təyin edən formulada Ck-hərfi nəyi göstərir? (Çəki: 1)

- ○ kiplərin sayı
- ○ kipin həcmi
- ◉ kiplərin çəkisi
- ○ kiplərdə lifin sıxlığı
- ○ kiplərdə lintin sıxlığı

Sual: Qatarlara yüklənən kiplərin ümumi çəkisini təyin edən formulada n-hərfi nəyi göstərir? (Çəki: 1)

- ○ kiplərdə lifin sıxlığı
- ○ kiplərin həcmi
- ○ kipin ölçüləri
- ◉ kiplərin sayı
- ○ kiplərdə lintin sıxlığı

Sual: Qatarlara yüklənən kiplərin ümuni çəkisini təyin edən formulada Vk-hərfi nəyi göstərir? (Çəki: 1)

- ○ kiplərin sayı
- ○ kiplərdə lifin sıxlığı
- ○ kipin ölçüləri
- ○ kipin çəkisi
- ◉ kipin həcmi

Sual: (Çəki: 1)

Qatarlara yuklenen kiplerin umumi cekisini t?yin eden formulada ρ -herfi neyi gosterir?

- ◉ kiplərdə lifin yaxud lintin sıxlığı
- ○ kiplərin sayı
- ○ kipin ölçüləri
- ○ kiplərin həcmi
- ○ kipin çəkisi

Sual: Pambıq təmizləyən zavodların ərazisində dəmir yol xətti yoxdursa,onda kiplərin daşınmasında hansı qurğulardan istifadə olunur? (Çəki: 1)

- ○ tallardan
- ◉ konveyerdən
- ○ avtokarlardan
- ○ cin maşınlarından
- ○ linter maşınlarından

Sual: Kiplərin daşınmasında istifadə olunan konveyerin yük götürmə qabiliyyəti neçə tona qədər olur? (Çəki: 1)

- ○ 10
- ○ 8
- ◉ 5
- ○ 6
- ○ 18

BÖLMƏ: 1501

Ad	1501
Suallardan	10
Maksimal faiz	10
Sualları qarışdırmaq	☑
Suallar təqdim etmək	1 %

Sual: İlkin emal müəsissələrinin avtomatlaşdırılması istehsal prosesinə necə təsir edir? (Çəki: 1)
- ◉ əl əməyi və enerji sərfi azalır
- ○ işin həcmi artır
- ○ presləmə prosesi çətinləşir
- ○ cinləmə prosesinin sürəti azalır
- ○ linterləmə prosesinin sürəti azalır

Sual: Avtomatlaşdırılmış pambıq təmizləmə zavodları neçə əsas qrupa bölünür? (Çəki: 1)
- ○ 5
- ◉ 2
- ○ 4
- ○ 8
- ○ 10

Sual: Avtomatlaşdırılmış zavodlarda əsas texnoloji qurğular hansılardır? (Çəki: 1)
- ○ tərəzi
- ○ daşıyıcı qurğular
- ○ ventilyasiya sistemi
- ◉ cinlər və linterlər
- ○ aspirasiya sistemi

Sual: Avtomatlaşdırılmış zavodlarda köməkçi texnoloji qurğular hansılardır? (Çəki: 1)
- ○ linterlər
- ○ cinlər
- ◉ ventilyasiya,tərəzi və daşıyıcılar
- ○ xırda qarışıqlardan təmizləyən maşınlardan
- ○ iri qarışıqlardan təmizləyən maşınlar

Sual: Cinləmə prosesinin avtomatlaşdırılmasında hansı qidalandırıcıdan istifadə olunur? (Çəki: 1)
- ○ PB
- ○ PK
- ○ SV
- ○ SK
- ◉ PD

Sual: Cinləmə prosesinin avtomatlaşdırılmasında hansı qurğudan istifadə olunur? (Çəki: 1)

- ◉ ZXDD
- ○ ZUS
- ○ PB
- ○ PK
- ○ STB

Sual: Cin maşınlarında quraşdırılmış işə salma şkafı,nəzarət kolonkası hansı idarəetmə qurğuları adlandırılır? (Çəki: 1)

- ○ sadə
- ○ mürəkkəb
- ○ adi
- ◉ elektrik
- ○ mexaniki

Sual: Cin maşınlarında yüklənmələr çox zəif olduqda məhsuldarlıq necə dəyişir? (Çəki: 1)

- ○ artır
- ◉ azalır
- ○ sabit qalır
- ○ dəyişmir
- ○ bərabərləşir

Sual: Linter maşınlarında icraedici mexanizmlər cin maşınlarından necə fərqli olur? (Çəki: 1)

- ○ bərabər olur
- ○ çox olur
- ○ rahat olur
- ○ eyni olur
- ◉ az olur

Sual: Linter maşının idarəetmə düyməsinə basıldıqda ilk olaraq hansı qurğu işə salınır? (Çəki: 1)

- ◉ mişarlı slindir
- ○ voroşitel
- ○ işçi kamera
- ○ çiyid valiki
- ○ bateriyalar

BÖLMƏ: 0103

Ad	0103
Suallardan	20
Maksimal faiz	20
Sualları qarışdırmaq	☑
Suallar təqdim etmək	1 %

Sual: Maşın və əl intiqallı yükqaldırıcı nəqletdirici yükqaldırıcı və nəqletdirici maşın və mexanizmlər üçün nominal yükqaldırma qabiliyyətininsırası hansı standartla müəyyən edilmişdir ? (Çəki: 1)

- ◉ DÜİST 1575-61
- ○ DÜİST 1682-56
- ○ DÜİST 7910-62
- ○ DÜİST 10721-64
- ○ DÜİST 1451-65

Sual: Yük qarmaqlarını hansı materialdan götürürlər? (Çəki: 1)
- ○ çuqun
- ◉ polad-20
- ○ alüminium
- ○ polad-45
- ○ mis

Sual: Qarmaqları necə emal edirlər? (Çəki: 1)
- ◉ döymə-ştamplama
- ○ əritmə-tökmə
- ○ kəsmə-yanma
- ○ doğrama-qırma
- ○ mexaniki-emal

Sual: Yük ilmələri necə emal edilir? (Çəki: 1)
- ○ döymə ilə
- ◉ ştamplama ilə
- ○ kəsmə ilə
- ○ mexaniki emal ilə
- ○ qaynaqla

Sual: İlmənin materialı hansı dövlət standartı ilə müəyyənləşdirilir? (Çəki: 1)
- ◉ DÜİST 380-60
- ○ DÜİST 1575-61
- ○ DÜİST 1682-56
- ○ DÜİST 7910-52
- ○ DÜİST 10721-64

Sual: Eyni yükü qaldırmaq üçün ilmənin çəkisi və ölçüləri qarmağın ölçülərindən və çəkisindən necə fərqlənir? (Çəki: 1)
- ○ böyükdür
- ◉ kiçikdir
- ○ ona bərabərdir
- ○ daha çoxdur
- ○ müqayisəli deyil

Sual: Çox mərtəbəli binalarda, qurğularda yükləri qaldırmaq üçün hansı qaldırıcılardan istifadə olunur? (Çəki: 1)
- ○ domkratlardan
- ○ hidravlik domkratlardan
- ○ kranlardan
- ◉ liftlərdən
- ○ avtoyükləyicilərdən

Sual: İlmənin materialı nə götürülür? (Çəki: 1)
- ◉ polad 3 və az legirlənmiş polad
- ○ çuqun
- ○ polad 20
- ○ legirlənmiş polad
- ○ polad yox

Sual: Açıq havada işləyən qurğulara küləyin təsirindən qüvvələr əmələ gəlir və bu qüvvələrin norması xüsusi DÜİST-ə verilir. Bu hansıdır? (Çəki: 1)

- ◉ DÜİST 1451-65
- ○ DÜİST 1575-61
- ○ DÜİST 1682-56
- ○ DÜİST 7910-62
- ○ DÜİST 10721-64

Sual: Qarmağın yiv asılan hissəsi hansı gərginliyə məruz qalır? (Çəki: 1)

- ◉ dartılmaya
- ○ sıxılmaya
- ○ əzilməyə
- ○ əyilməyə
- ○ kəsilməyə

Sual: ЛК-Р (LK-R) tipli kanatda Р (R) işarəsi kanatın təbəqələrdə hansı diametrli kanatın olduğunu göstərir? (Çəki: 1)

- ◉ müxtəlif
- ○ eyni
- ○ böyük
- ○ kiçik
- ○ bərabər və müxtəlif

Sual: ЛК-РО (LK-RO) tipli kanatda РО (RO) işarəsi kanatın təbəqələrdə hansı diametrli kanatın olduğunu göstərir? (Çəki: 1)

- ◉ bərabər və müxtəlif
- ○ eyni
- ○ böyük
- ○ kiçik
- ○ müxtəlif

Sual: Qarmağın quyruq hissəsinin diametrini təyin edin. (Çəki: 1)

- ◉ $d_1 = \sqrt{\frac{4F}{\pi[\sigma]_{il}}}$
- ○ $d_1 = \sqrt{\frac{M}{0,1\sigma_{ey}}}$
- ○ $d_1 = \sqrt[3]{\frac{M}{0,1\sigma_{ey}}}$
- ○ $d_1 = \sqrt{\frac{F}{[\sigma]_{il}}}$
- ○ $d_1 = \sqrt{\frac{F}{0,1[\sigma]_{il}}}$

Sual: Kanatın seçilməsində çox ağır rejim üçün möhkəmlik ehtiyat əmsalı nə qədər qəbul edilir? (Çəki: 1)

- ◉ 6
- ○ 5
- ○ 5,5
- ○ 4
- ○ 6,5

Sual: Kanatın ucunun barabana bərkidildiyi yaranan qüvvəni təyin edin. (Çəki: 1)

◉ $S_b = \frac{S_{max}}{e^{\beta\delta}}$

○ $S_b = \frac{S_{max}}{e^{fd} \cdot \delta}$

○ $S_b = \frac{S_{max} \cdot K}{e^{\beta\delta}}$]

○ $S_b = \frac{S_{max}}{e^{f}}$

○ $S_b = \frac{S_{max} \cdot K}{e^{f}}$

Sual: Polad kanatların eşilmə növünə görə sayı nə qədərdir? (Çəki: 1)

◉ 3
○ 2
○ 1
○ 4
○ 5

Sual: Tarada qablaşdırılmış diyirlənən yükün çəkisi neçə kq – dan az olan yüklər normal çəkili yüklər adlanır? (Çəki: 1)

◉ 400
○ 450
○ 500
○ 550
○ 600

Sual: Yükün nəmlik faizini təyin edin. (Çəki: 1)

◉ $W_n = \frac{(m_n - m_q) \cdot 100}{m_q}$

○ $W_n = \frac{(m_q - m_n) \cdot 100}{m_q}$

○ $W_n = \frac{(m_n - m_q) \cdot 100}{m_n}$

○ $W_n = \frac{(m_q - m_n) \cdot 100}{m_n}$

○ $W_n = \frac{m_n - m_q}{m_q}$

Sual: Maşınla yığılmış xam pambığın qəbulunda hansı ГОСТ-un tələblərinə ciddi riayət olunmalıdır? (Çəki: 1)

○ 16721-79
◉ 16298-81
○ 3742-74
○ 3548-75
○ 16287-88

Sual: Tədarük məntəqələrinin laboratoriyasında hansı sinif dəqiqliyində tərəzidən istifadə olunur? (Çəki: 1)
- ○ III
- ○ III- IV
- ◉ I- II
- ○ V
- ○ IV

BÖLMƏ: 1502

Ad	1502
Suallardan	8
Maksimal faiz	8
Sualları qarışdırmaq	☑
Suallar təqdim etmək	1 %

Sual: Mişarlı slindir işə salındıqdan neçə san. sonra işçi kamera işə düşür? (Çəki: 1)
- ○ 10-20
- ◉ 1-2
- ○ 8-10
- ○ 20-25
- ○ 6

Sual: İşçi kamera qurğusu işə düşərək hansı qurğunu işə salır? (Çəki: 1)
- ○ mişarlı slindir
- ○ çiyid valiki
- ◉ voroşitel
- ○ bateriyalar
- ○ tərəzilər

Sual: Hansı texnoloji prosesdən sonra mahlıc,lint və lifli tullantılar qablaşdırılır və çəkilir? (Çəki: 1)
- ○ təmizləmə
- ○ linterləmə
- ○ cinləmə
- ◉ presləmə
- ○ qurutma

Sual: Qablaşdırılmış mahlıc,lint və lifli tullantılar əsasən hansı tipli avtomatlaşdırılmış siferblat tərəzilərdə çəkilir? (Çəki: 1)
- ○ VCK-300
- ○ VCK-450
- ○ CRPV-200
- ○ CVP-400
- ◉ VÇPR-500

Sual: VÇPR-500 tipli tərəzi neçə hissədən ibarət olur? (Çəki: 1)
- ◉ 4
- ○ 5
- ○ 2
- ○ 6
- ○ 3

Sual: Aşağıdakılardan hansı VÇPR-500 tərəzisinin əsas hissələrindəndir? (Çəki: 1)
- ○ yük təmizləyən mexanizm
- ◉ yük qəbul edən mexanizm
- ○ voroşitel
- ○ lentli
- ○ quruducu

Sual: Aşağıdakılardan hansı VÇPR-500 siferblat tərəzisinin əsas hissələrindəndir? (Çəki: 1)
- ○ lentli qidalandırıcı
- ○ quruducu
- ◉ aralıq mexanizm
- ○ yük təmizləyən mexanizm
- ○ voroşitel

Sual: Aşağıdakılardan hansı siferblat tərəzinin əsas hissələrindəndir? (Çəki: 1)
- ○ voroşitel
- ○ sıxıcı
- ○ quruducu
- ○ lentli qidalandırıcı
- ◉ toplayan və çap edən aparat

BÖLMƏ: 1503

Ad	1503
Suallardan	8
Maksimal faiz	8
Sualları qarışdırmaq	☑
Suallar təqdim etmək	1 %

Sual: Fasiləsiz texnoloji prosesdə linterləmədən sonra çiyid hansı markalı avtomatik tərəzilərdə çəkilir? (Çəki: 1)
- ◉ DXM-150
- ○ DSV-100
- ○ SVH-12
- ○ KLM-10
- ○ DSK-410

Sual: Aşağıdakılardan hansı DXM-150 tərəzisinin əsas hissələrindəndir? (Çəki: 1)
- ○ ötürücü
- ◉ dəqiq kütlə qapağı
- ○ yayıcı
- ○ quruducu
- ○ itələyici

Sual: Aşağıdakılardan hansı DXM-150 tərəzisinin əsas hissələrindəndir? (Çəki: 1)
- ○ yayıcı
- ○ ötürücü
- ○ sıxıcı
- ◉ elektromaqnitlər

○ quruducu

Sual: Avtomat tərəzilərdə çiyidin çəkilməsi zamanı xətaların aşkar edilməsi üçün hansı tədbirlər görülür? (Çəki: 1)

○ tərəzinin qolu nizamlanır
○ tərəzidəki kənar qarışıqlar təmizlənir
○ çiyidin nəmliyi artırılır
○ çiyidin nəmliyi azaldılır
◉ çolovda saxlanılan çiyid çəkilir

Sual: Köməkçi qurğuların işi necə avtomatlaşdırılır? (Çəki: 1)

◉ ayrıca
○ birlikdə
○ fasiləsiz
○ fasiləli
○ ardıcıl

Sual: Mərkəzləşdirilmiş idarəemə sistemində bütün sistemin işə salınmasını neçə işçi aparır? (Çəki: 1)

○ 2
◉ 1
○ 4
○ 3
○ 6

Sual: Mərkəzdirilmiş idarəetmə sistemində bütün istehsal prosesi maksimum neçə san. işə salınır? (Çəki: 1)

○ 40
○ 15
◉ 30
○ 50
○ 35

Sual: Pnevmatik nəqliyyat qurğularında bunkerlərdə klapandan açılıb-bağlanması hansı qurğu ilə aparılır? (Çəki: 1)

○ çolov
○ dişli çarx
○ radiator
◉ impulslu qidalandırıcı
○ variator

BÖLMƏ: 1602

Ad	1602
Suallardan	9
Maksimal faiz	9
Sualları qarışdırmaq	☐
Suallar təqdim etmək	1 %

Sual: Vahid metr uzunluğunda lentin çəkisi hansı ifadəyə bərabərdir (N/m-lə)? (Çəki: 1)

$q_l = 0,011(\delta_0 i + \delta_1 + \delta_2)B$ ◉

$q_l = (\delta_0 i + \delta_1 + \delta_2)$ ○

$q_l = 0,011B$ ○

$q_l = 0,011(\delta_0 + \delta_1 + \delta_2)B$ ○

$q_l = 0,011(\delta_0 i + \delta)B$ ○

Sual: Lentli konveyerdə lentin enini tapın. (Çəki: 1)

$B = 1,1\left(\sqrt{\frac{Q}{K_S \cdot \vartheta \cdot \rho \cdot K_\beta}} + 0,05\right)$ ◉

$B = \frac{Q}{K_S \cdot \vartheta \cdot \rho \cdot K_\beta} + 0,05$ ○

$B = 1,1\sqrt{\frac{Q}{K_S \cdot \vartheta \cdot \rho \cdot K_\beta}}$ ○

$B = \sqrt{\frac{Q}{K_S \cdot \vartheta \cdot \rho \cdot K_\beta}} + 0,05$ ○

$B = \frac{Q}{K_S \cdot \vartheta \cdot \rho \cdot K_\beta}$ ○

Sual: Səpələnən yüklər üçün vahid uzunluğa düşən yükü təyin edin (N/m-lə). (Çəki: 1)

$q_y = \frac{gQ}{3,6 \cdot \vartheta}$ ◉

$q_y = \frac{Q}{3,6 \cdot \vartheta}$ ○

$q_y = \frac{10^3 \cdot Q}{3,6 \cdot \vartheta}$ ○

$q_y = \frac{Q}{3600 \cdot \vartheta}$ ○

$q_y = \frac{G}{l_y}$ ○

Sual: Lentli konveyerdə ədədi yüklər üçün vahid uzunluğa düşən yükü təyin edin (N/m-lə). (Çəki: 1)

$q_{\pi.y} = gm_y / l_0$ ◉

$q_{\pi.y} = gG / l_0$ ○

$q_{\pi.y} = \frac{gm_y}{3,6\vartheta}$ ○

$q_{\pi.y} = \frac{gm_y}{\vartheta}$ ○

$q_{\pi.y} = \frac{gQ}{3,6\vartheta}$ ○

Sual: Lentli konveyerdə yuxarı dayaq diyircəyin kütləsindən vahid uzunluğa düşən yükü təyin edin (N/m-lə). (Çəki: 1)

$q_{y.d} = \frac{g \cdot m_{y.d}}{l_{y.d}}$ ◉

$q_{y.d} = \frac{g \cdot Q}{3,6\vartheta}$ ○

$q_{y.d} = \frac{m_{y.d}}{i}$ ○

$l_{y.d}$

$q_{y.d} = \frac{gQ + g \cdot m_{y.d}}{l_{y.d}}$ ○

$q_{y.d} = \frac{g \cdot m_{y.d} + Q}{l_{y.d}}$ ○

Sual: Üfüqi istiqamətli lentli konveyerin yuxarı işçi qolunda yaranan müqavimət qüvvəsini təyin edin. (Çəki: 1)

$W_y = \omega_y (q_l + q_y + q_{y.d}) l$ ◉

$W_y = \omega_y (q_l + q_y + q_{y.d}) l + (q_l + q_y) h$ ○

$W_y = \omega_y (q_l + q_{y.d}) l$ ○

$W_y = \omega_y (q_y + q_{y.d}) l$ ○

$W_y = (q_l + q_y) h$ ○

Sual: Aşağı enişli lentli konveyerin aşağı qolunda yaranan müqavimət qüvvəsini təyin edin. (Çəki: 1)

$W_a = \omega_a (q_l + q_{a.d}) l - q_l h$ ◉

$W_a = \omega_a (q_l + q_{a.d}) l + q_l h$ ○

$W_a = \omega_a (q_l + q_y + q_{a.d}) l + q_l h$ ○

$W_a = q_l h$ ○

$W_a = \omega_a (q_l + q_{a.d}) l$ ○

Sual: X yükün böyüklüyünü nəzərə alan əmsal adi yüklər üçün nə qədər qəbul edilir? (Çəki: 1)

◉ 2.5
○ 1
○ 1.5
○ 2
○ 0.5

Sual: Yükün böyüklüyünü nəzərə alan əmsal X seçilmiş yüklər üçün nə qədər qəbul edilir? (Çəki: 1)

◉ 3,5
○ 2
○ 2.5
○ 3
○ 1.5

BÖLMƏ: 1603

Ad	1603
Suallardan	8
Maksimal faiz	8
Sualları qarışdırmaq	☑
Suallar təqdim etmək	1 %

Sual: Yükün çəkisindən elevatorun hərəkət edən hissəsinin vahid metr uzunluğuna düşən yükü təyin edək. (Çəki: 1)

$q = \frac{Qg}{\quad}$ ◉

$q = \frac{3,6\vartheta}{Q}$ ○

$q = \frac{Q}{3,6\vartheta\varphi}$ ○

$q = \frac{Qg}{3,6\vartheta\varphi}$ ○

$q = \frac{Qg}{\vartheta\psi\gamma}$ ○

$q = \frac{Qg}{3,6\vartheta\psi\gamma}$ ○

Sual: Elevatorda lentin tələb olunan qatları sayını təyin edin. (Çəki: 1)

$i = \frac{S_{max} n_0}{K_\gamma B K_0}$ ◉

$i = \frac{S_{max} n_0}{B K_0}$ ○

$i = \frac{S_{max}}{K_\gamma B K_0}$ ○

$i = \frac{S_{max} n_0}{B}$ ○

$i = \frac{F_t e^{\mu\alpha}}{K_\gamma B}$ ○

Sual: Öz-özünə boşalan sakit sürətli elevator üçün barabanın diametri nə qədər qəbul edilir? (Çəki: 1)

$\geq 0,6\vartheta^2$ ◉

$0,3\vartheta^2$ ○

$0,4\vartheta^2$ ○

$0,5\vartheta^2$ ○

$0,2\vartheta^2$ ○

Sual: Elevatorun intiqal barabanında yaranan çevrəvi qüvvəni təyin edin (Çəki: 1)

$F_t = \frac{1000P}{\vartheta}$ ◉

$F_t = \frac{102P}{\vartheta}$ ○

$F_t = \frac{60P}{\vartheta}$ ○

$F_t = \frac{612P}{\vartheta}$ ○

$F_t = \frac{6120P}{\vartheta}$ ○

Sual: Elevatorun maksimal gərilmə qüvvəsini təyin edin. (Çəki: 1)

$S_{max} = F_t \frac{e^{\mu\alpha}}{e^{\mu\alpha}-1}$ ◉

$S_{max} = F_t e^{\mu\alpha}$ ○

$S_{max} = \frac{F_t}{e^{\mu\alpha}-1}$ ○

$S_{max} = F_t \frac{e^{\mu\alpha}-1}{e^{\mu\alpha}}$ ○

$S_{max} = F_t \frac{1}{\quad}$ ○

$h_{max} = \frac{\ldots}{e^{\mu\alpha+1}}$

Sual: Elevatorda qütb məsafəsini təyin edin. (Çəki: 1)

- $h_p = \frac{895}{n^2}$ ◉
- $h_p = \frac{gr^2}{\vartheta}$ ○
- $h_p = \frac{gr}{\vartheta^2}$ ○
- $h_p = \frac{gr}{\vartheta}$ ○
- $h_p = \frac{gr^2}{m\vartheta^2}$ ○

Sual: Elevatorun çalovunun tutumunu təyin edin. (Çəki: 1)

- $i_n = \frac{Q}{3{,}6\vartheta\psi\gamma}$ ◉
- $i_n = \frac{Qg}{3{,}6\vartheta}$ ○
- $i_n = \frac{Qg}{3{,}6\vartheta\psi\gamma}$ ○
- $i_n = \frac{Q}{3{,}6\vartheta\gamma}$ ○
- $i_n = \frac{Q}{\vartheta\psi\gamma}$ ○

Sual: Elevatorun məhsuldarlığını təyin edin. (Çəki: 1)

- $Q = 3{,}6\frac{G}{t}\vartheta$ ◉
- $Q = 3600\frac{G}{t}\vartheta$ ○
- $Q = 3{,}6G\vartheta$ ○
- $Q = 3{,}6mg\vartheta$ ○
- $Q = 3{,}6\frac{mg}{t}\vartheta$ ○